مراجعة الوحدة الخامسة
لمادة الرياضيات المتكاملة
الصف الثالث الفصل الأول

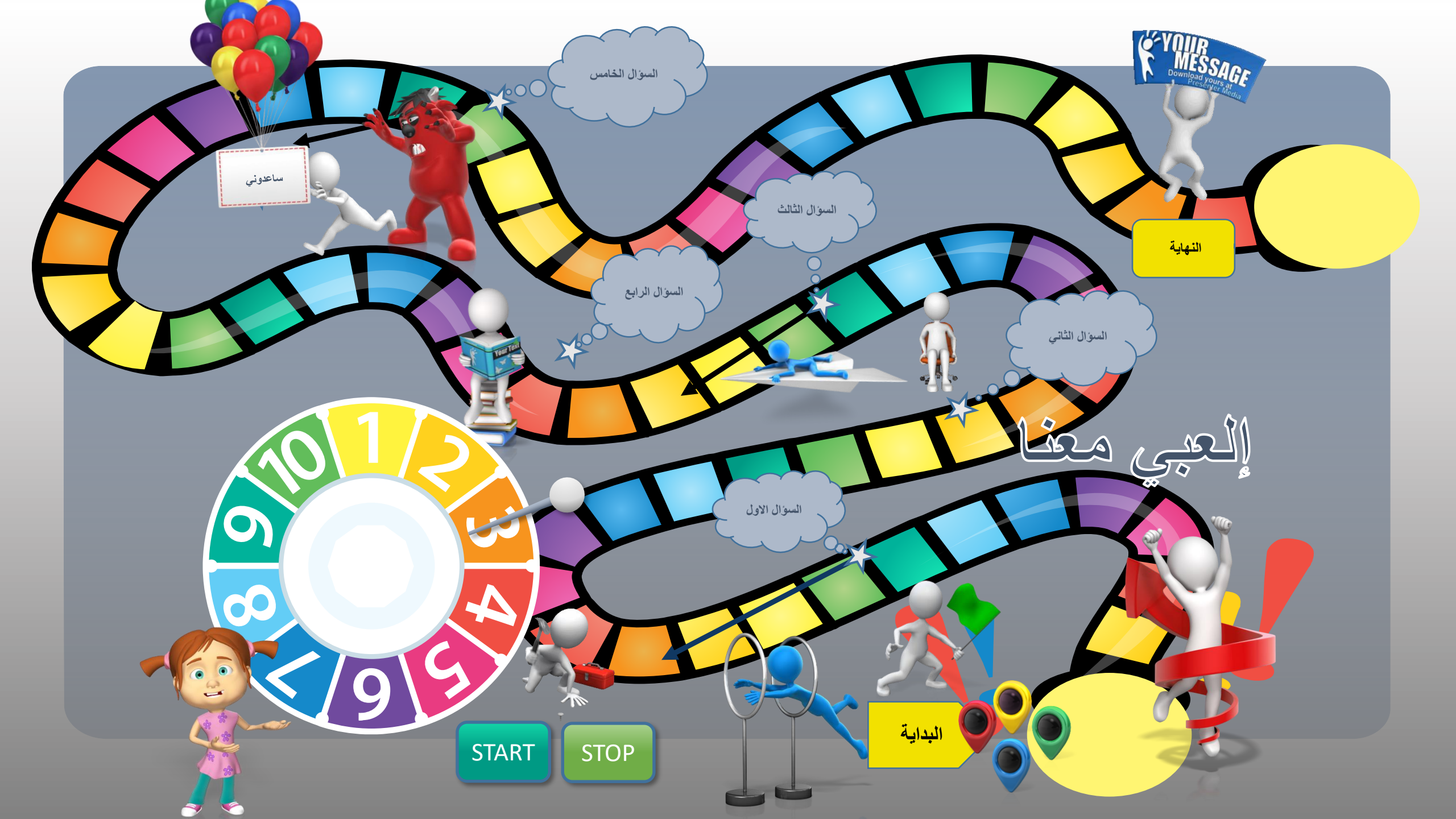
إلعبي معنا
السؤال الاول
السؤال الثاني
السؤال الثالث
السؤال الرابع
السؤال الخامس
ساعدوني
النهاية
البداية
START
STOP
1
2
3
4
5
6
7
8
9
10

اِسْتَخْدِمْ قِطَعَ العَدِّ لإيجادِ عَدَدِ القِطَعِ في كُلِّ مَجْموعَةٍ.

9. 14 قِطْعَةَ عَدٍّ

مَجْموعَتانِ مُتَساوِيَتانِ

14 ÷ 2 = 7

7 في كُلِّ مَجْموعَةٍ

الحمد لله انا بخير رددوا معي
(الحمد لله حمدا كثيرا طيبا
مباركا فيه

10. 25 قِطْعَةً عَدِّ

5 مَجموعاتٍ مُتَساوِيَةٍ

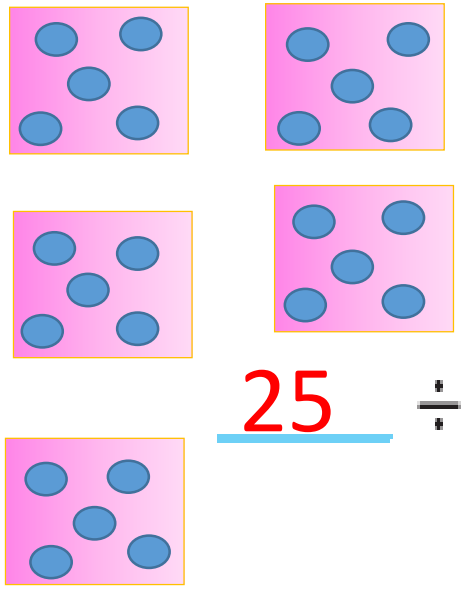

25 ÷ 5 = 5

5 في كُلِّ مَجْموعَةٍ

II.

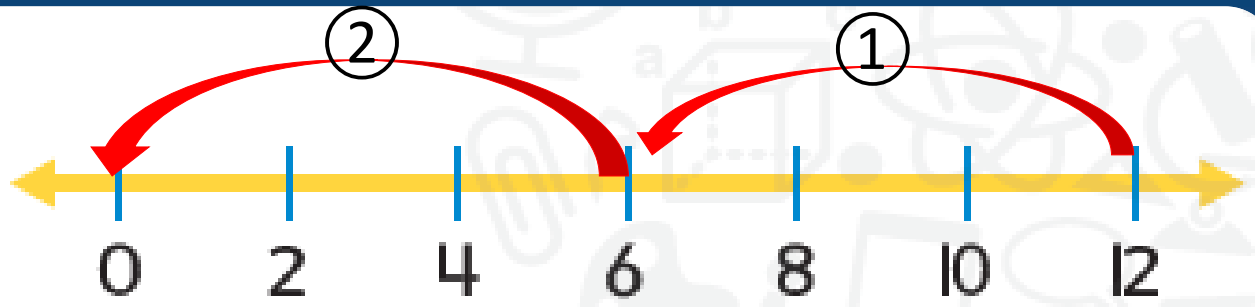

$12 \div 6 =$ 2

اِسْتَخْدِمِ الطَّرْحَ المُتَكَرِّرَ لِلْقِسْمَةِ.

12.

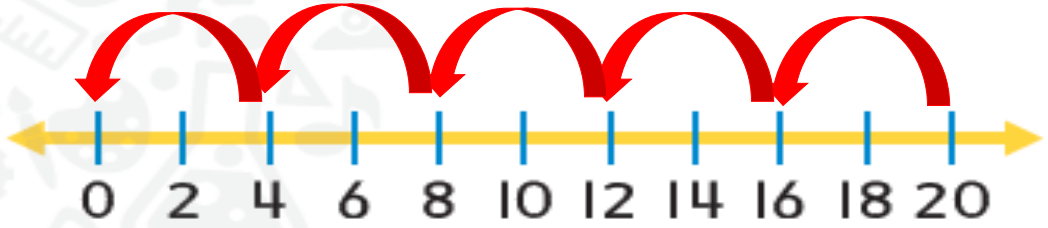

$20 \div 4 =$ 5

ساعدوني

أُكْتُبْ جُمْلَةَ قِسْمَةٍ وَجُمْلَةَ ضَرْبٍ مُتَرابِطَتَينِ لِكُلٍّ مِمّا يأتي.

13.

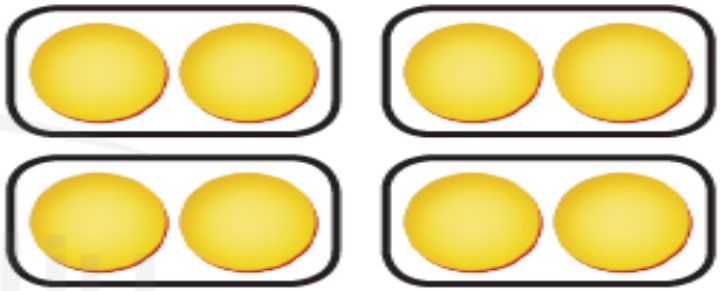

8÷4=2

2x4=8

اُكْتُبْ جُمْلَةَ قِسْمَةٍ وَجُمْلَةَ ضَرْبٍ مُتَرابِطَتَينِ لِكُلٍّ مِمّا يأتي.

.14

5x3=15

15÷3=5

أُكْتُبْ عائِلَةَ الحَقائِقِ لِكُلِّ مَجْموعَةٍ مِنَ الأَعْدادِ.

15. 4, 7, 28

28÷4=7

4x7=28

28÷7=4

7x4=28

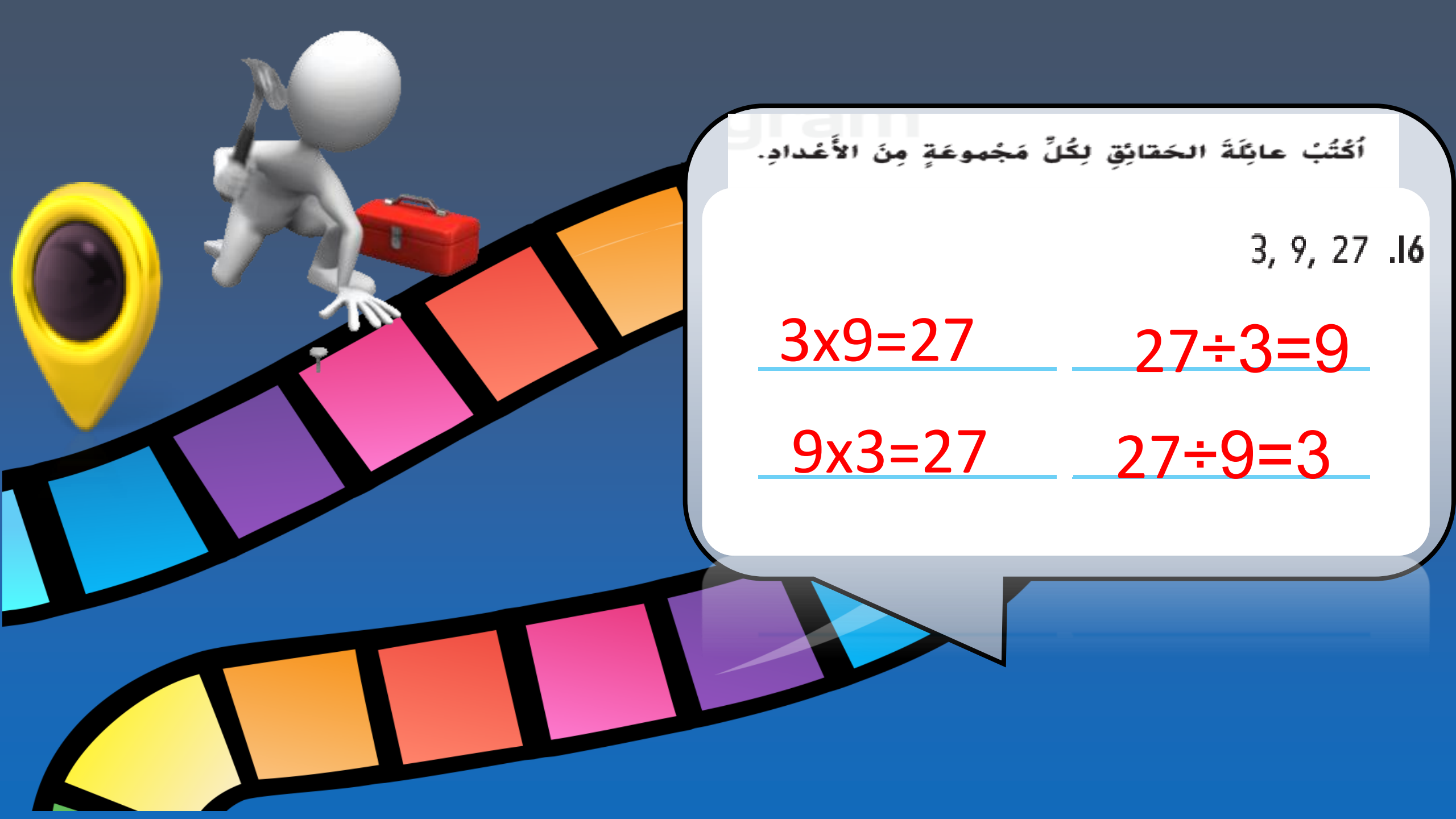

اُكْتُبْ عائِلَةَ الحَقائِقِ لِكُلِّ مَجْموعَةٍ مِنَ الأَعْدادِ.

16. 3, 9, 27

27÷3=9

3x9=27

27÷9=3

9x3=27

17. أَعْطى طَبيبُ الأَسْنانِ لِعَدْنانَ 12 فُرْشاةَ أَسْنانٍ. وَيُريدُ عَدْنانُ اِقْتِسامَها بِالتَّساوي بَيْنَهُ وَبَيْنَ اثْنَينِ مِنْ أَصْدِقائِهِ. فَكَمْ عَدَدُ فَراشي الأَسْنانِ الّتي سَيَحْصَلُ عَلَيْها كُلُّ شَخْصٍ؟ اُكْتُبْ جُمْلَةَ قِسْمَةٍ.

12÷3=4

18. مُعَلِّمَةٌ لَدَيْها 24 قَلَمَ رَصاصٍ. احْتَفَظَتْ بِـ 4 أَقْلامٍ وَتَقاسَمَتِ الأَقْلامَ الأُخْرى بِالتَّساوي مَعَ 5 طُلّابٍ. فَكَمْ عَدَدُ أَقْلامِ الرَّصاصِ الّتي حَصَلَ عَلَيْها كُلُّ طالِبٍ؟

24-4=20 20÷5=4



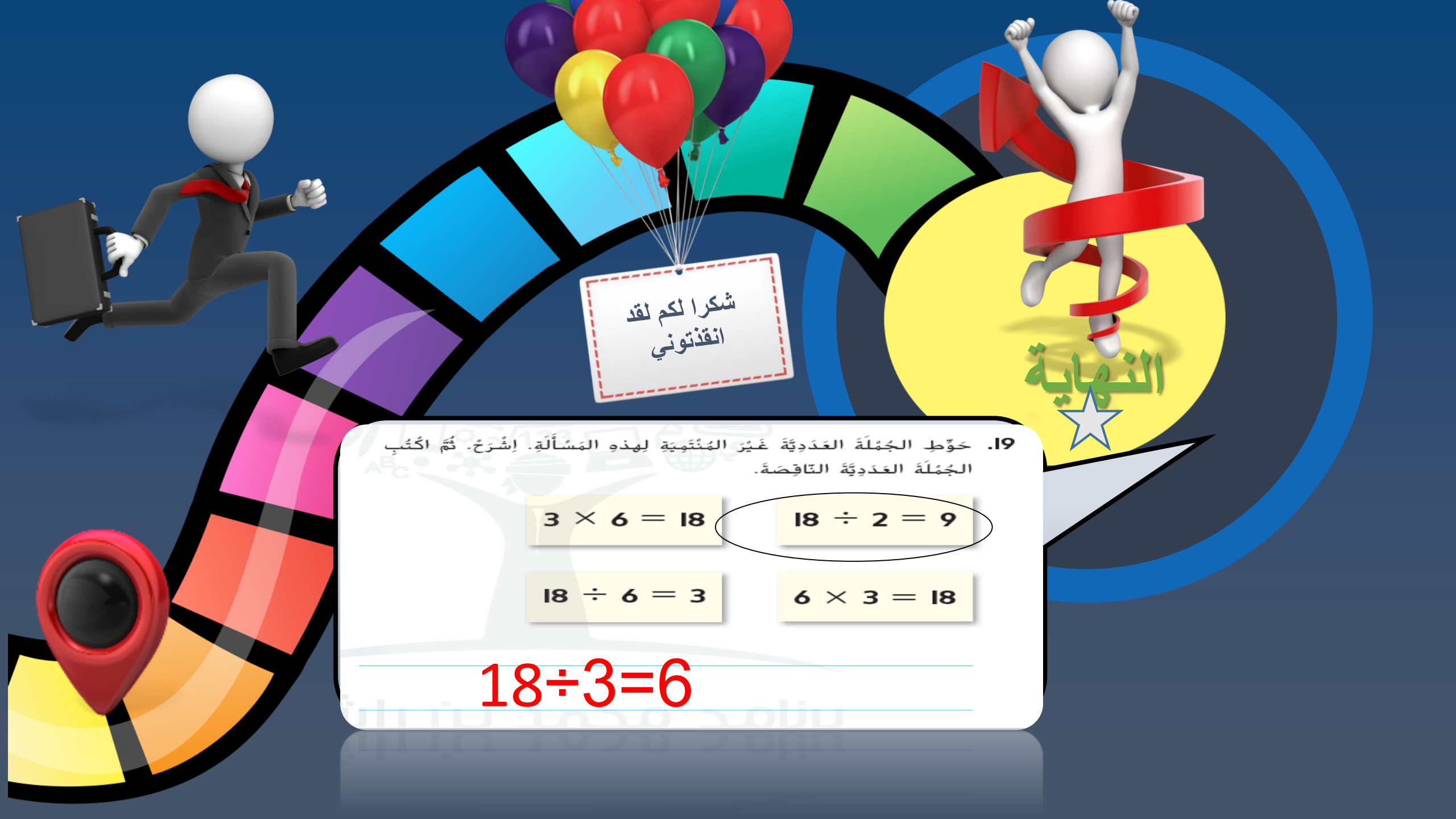

19. حَوِّطِ الجُمْلَةَ العَدَدِيَّةَ غَيْرَ المُنْتَمِيَةِ لِهذهِ المَسْأَلَةِ. اِشْرَحْ. ثُمَّ اكْتُبِ الجُمْلَةَ العَدَدِيَّةَ النّاقِصَةَ.

$18 \div 2 = 9$	$3 \times 6 = 18$
$6 \times 3 = 18$	$18 \div 6 = 3$

$18 \div 3 = 6$

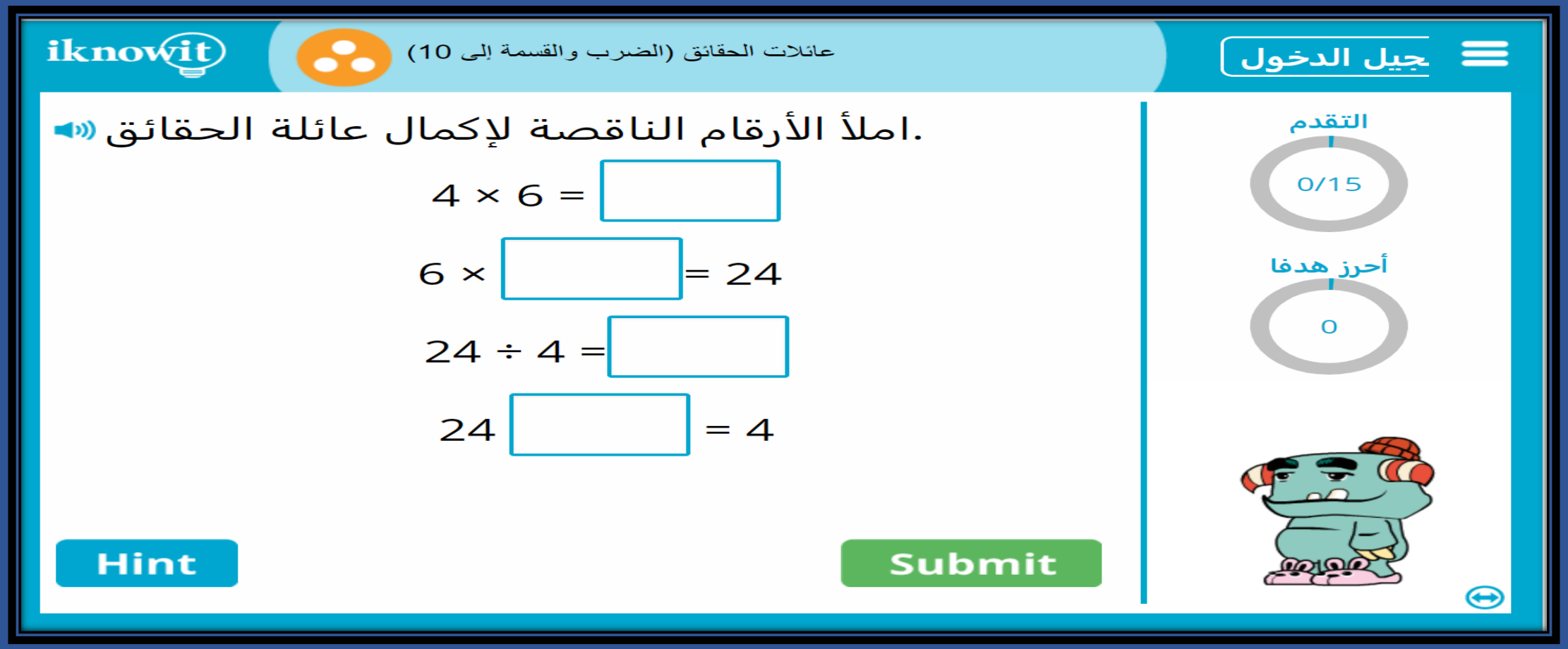

https://www.iknowit.com/lessons/c-fact-families-multiplication-division-to-10s.html

اِسْتَخْدِمْ قِطَعَ العَدِّ لإيجادِ عَدَدِ القِطَعِ في كُلِّ مَجْموعَةٍ.

9. 14 قِطْعَةَ عَدٍّ

مَجْموعَتانِ مُتَساوِيَتانِ

_____ ÷ _____ = _____

_____ في كُلِّ مَجْموعَةٍ

10. 25 قِطْعَةَ عَدٍّ

5 مَجموعاتٍ مُتَساوِيَةٍ

_____ ÷ _____ = _____

_____ في كُلِّ مَجْموعَةٍ

https://whiteboard.fi/d5644

اِسْتَخْدِمِ الطَّرْحَ المُتَكَرِّرَ لِلْقِسْمَةِ.

11.

12 ÷ 6 = _____

12.

20 ÷ 4 = _____

تم تحميل هذا الملف من موقع ومنتديات صقر الجنوب التعليمية

للمزيد من المواضيع التعليمية

الشاملة لجميع المناهج في الوطن العربي

ابحث في

Google

عن

منتديات صقر الجنوب