منطقة عجمان التعليمية

مدرسة الحكمة الخاصة

قسم الجرف معلمة : صفاء جلال

مدرسة الحكمة الخاصة
AL HIKMAH PRIVATE SCHOOL
92-93

المادة علوم

الصف:السابع - الشعبة .....

اسم الطالب :.....

اثرائي للفقرة 1-2للاختبار التشخيصي للعلوم سابع 2021-2022 (لمركبات والمخاليط)

ضع دائرة حول الإجابة الصحيحة

1- استخدم احد الطلاب كرات حمراء و زرقاء لتثميل ذرات اكتب الحرف المناسب؟

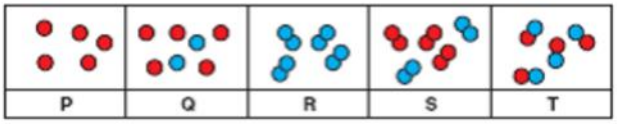

أي النماذج السابقة تمثل مركب:

A- P **B- Q**

C- R **D- T**

2- وضع حامد ثقل وشمعة على ميزان بسيط، واشعل الشمعة وبعد خمس دقائق قام بتصوير ما حدث،اي مما يلي يفسر ما حدث عند اشعال الشمعة ؟

A- ذرات الشمع دمرت.

B - تحول جزء من الشمع إلى غازات.

C- بعض مالشمع ذاب وتجمع في الطبق.

D - -تتسبب الحرارة المنبعثة من الشمعة في رفعها

3- تم وضع مادتين في نفس الوعاء ، هناك مادة واحدة أكثر كثافة من الأخرى ، لذلك فهي تغوص في قاع الدورق.

أي رسم توضيحي للذرات يمكن أن يمثل هذا الخليط؟
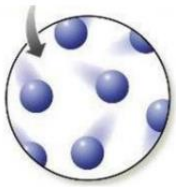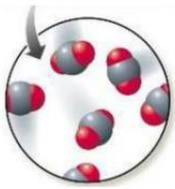
A	B	C	D