SN:10L20L0L251C492134X840D201809211853GH

UNITED ARAB EMIRATES
MINISTRY OF EDUCATION

الإمارات العربية المتحدة
وزارة التربية والتعليم

الاختبار التشخيصي للعام الدراسي 2018 2019

مادة الرياضيات

الصف الثالث

اسم الطالب	
الدرجة	

إدارة التقييم و الامتحانات

SN:10L20L0L251C492134X840D201809211853GH

United Arab Emirates
Ministry of Education

الإمارات العربية المتحدة
وزارة التربية والتعليم

إدارة التقييم والامتحانات
الصف : الثالث

الاختبار التشخيصي
للعام الدراسي 2018 / 2019 م

المـــادة : الرياضيات
عدد صفحات الأسئلة: (5)

ضع دائرة حول رمز الاجابة الصحيحة فيما يأتي :

1) حدد الحقيقة التي تمثل الأعداد في النموذج .

a) $17 - 9 = 8$ b) $9 + 7 = 16$ c) $16 - 8 = 8$

2) ما العدد الناقص في النمط العددي 32 , 27 , ? , 17 , 12 ؟

a) 19 b) 20 c) 22

3) أوجد الحد الجمعي الناقص في $758 + \square = 858$.

a) 10 b) 100 c) 50

4) ما الجملة العددية التي تناسب المصفوفة ؟

a) $4 + 4 = 8$ b) $4 + 4 + 4 = 12$ c) $2 + 2 + 2 = 6$

SN:10L20L0L251C492134X840D201809211853GH

5) أوجد ناتج $532 + 425$.

a) 857 b) 847 c) 957

6) أوجد الناتج في النموذج.

	المئات	العشرات	الآحاد
		☐	☐
	8	4	1
−	4	1	7

a) 424 b) 436 c) 324

7) أي الجمل العددية الآتية صحيحة ؟

a) $760 < 750$ b) $325 > 323$ c) $111 < 102$

8) مع البائع حسن 248 بالون ومع البائع عبيد 601 بالون .
فما إجمالي عدد البالونات التي مع حسن وعبيد؟

a) 749 b) 809 c) 849

SN:10L20L0L251C492134X840D201809211853GH

9) يوجد في متجر الألعاب 800 لعبة . تم بيع 250 لعبة منها. كم لعبة بقي في المتجر؟

a) 655 b) 550 c) 650

10) أي جملة عددية مما يلي يمكن أن تساعدك في حل $500 - 100$ ؟

a) $5-1$ b) $5+1$ c) $4-1$

11) ما عدد الأشهر في السنة الواحدة ؟

a) 7 b) 30 c) 12

12) يبدأ برنامج محمد المفضل الساعة **وينتهي بعد 15 دقيقة.**

أي من الساعات الآتية توضح وقت انتهاء البرنامج ؟

a) 4:15 b) 4:30 c) 5:00

SN:10L20L0L251C492134X840D201809211853GH

13) كم عدد الأشخاص الذين يفضلون عصير البرتقال وعصير الليمون في جدول العلامات ؟

نكهة العصير المفضلة	
النكهة	علامة الإحصاء
البرتقال	𝍸
العنب	IIII
الليمون	𝍸 III

a) 10 b) 12 c) 13

14) مستخدمًا التمثيل البياني بالنقاط المجمعة ، كم عدد الأطفال الذين يمتلكون قلمين ؟

عدد الأقلام

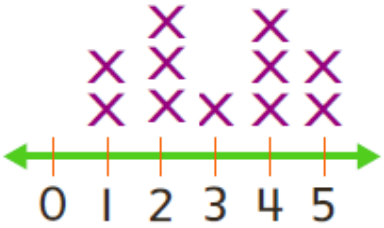

a) 2 b) 3 c) 1

15) لدى بدرية 6 عملات من فئة 5 فلس ، ولدى مها 5 عملات من فئة 10 فلس .

كم إجمالي المبلغ الذي مع بدرية و مها ؟

a) 80 فلسًا b) 70 فلسًا c) 60 فلسًا

16) كم يبلغ طول قلم التلوين في الشكل ؟

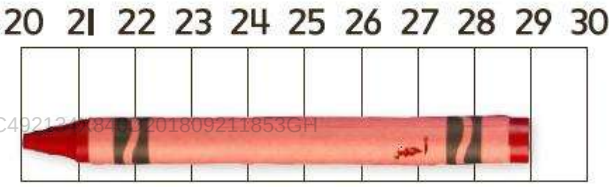

a) 8 b) 9 c) 10

SN:10L20L0L251C492134X840D201809211853GH

17) صف الأجزاء المتساوية في الشكل .

a) أثلاث b) أرباع c) أنصاف

18) كم عدد المربعات التي تكون المستطيل ؟

a) 4 b) 8 c) 6

19) ما الشكل الذي له 0 أضلاع و 0 زوايا ؟

a)  b)  c) 

20) ما الشكل ثلاثي الأبعاد الذي لديه 5 أوجه ؟

a) b) c) 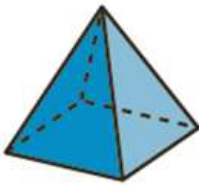

انتهت الأسئلة
بالتوفيق والنجاح