المملكة الأردنية الهاشمية
صوت الأردن
WWW.JTV.GOV.JO

١٠:٥٤ %٤٣
سجّل دخولك لتحرير الملف وحفظ التغييرات التي...

Q4. Re-order these broken sentences: (2 pts.)

1. the biggest / The Earth / isn't / planet

.....

2. called / Our city / Amman / wasn't

.....

Q5. Complete with (was /were): (2 pts.)

1. On Monday, I .....at the market.
2. In the past, the houses .....smaller.
3. The castle .....bigger.
4. There .....animals.

Q6. Match the opposites: (2pts.)

1. The darkest ( )	a) The driest
2. The biggest ( )	b) The fastest
3. The wettest ( )	c) The smallest
4. The slowest ( )	d) The brightest

Q7. Choose the correct answer: (6pts.)

1. Venus is .....planet.

a) the hotest b) the hottest

2. January is .....August.

a) colder than b) the coldest

3. .....is the slowest animal? The turtle.

a) Who b) Which

4. Wadi Rum is .....city in Jordan.

a) the driest b) drier

5. .....is the tallest person in your family? My father.

a) Who b) Which

6. Jerash is .....Amman.

a) smaller than b) the smallest

www.awa2el.net

ملاحظات وحدة القياس

* وحدات قياس الطول (كم ، م ، دسم ، سم ، مم) كم دم م

* في الشكل المرسوم جانباً بين وحدات قياس الطول.

* عند التحويل من كم إلى م نضرب × ١٠٠٠
* عند التحويل من م إلى كم نقسم على ١٠٠٠
* عند التحويل من م ، دسم ، سم ، مم نقوم بالضرب إما × ١٠ ، ١٠٠ ، ١٠٠٠
* عند التحويل من مم ، سم ، دسم ، م نقوم بالقسمة على ١٠ ، ١٠٠ ، ١٠٠٠
* محيط المربع = ٤ × طول الضلع
* محيط المستطيل = ٢ × (الطول + العرض)
* مساحة المربع = الضلع × الضلع
* مساحة المستطيل = الطول × العرض
* وحدات قياس المساحة كم² ، م² ، دسم² ، سم² ، مم²
* عند التحويل من م² إلى دسم² نقسم على ١٠٠
* عند التحويل من دسم² إلى م² نضرب × ١٠٠

* وحدات قياس الكتلة (الوزن) طن ، كغ ، غ

١ طن = ١٠٠٠ كغ

١ كغ = ١٠٠٠ غ

* وحدات قياس السعة (لتر ، مل)
* عند التحويل من لتر إلى مل نضرب × ١٠٠٠
* عند التحويل من مل إلى لتر نقسم على ١٠٠٠

* السرعة = المسافة / الزمن

معلمة المادة

الصف الرابع

الاسم ملخص الوحدة الثامنة

- وحدات الطول (كم ، م ، دسم ، سم ، مم)
- عند التحويل من كم ← الى م نضرب ب ١٠٠٠
- عند التحويل من م ← الى كم نقسم على ١٠٠٠
- عند التحويل من وحدة كبيرة الى وحدة صغيرة نضرب ب ١٠ او ١٠٠ او ١٠٠٠
- عند التحويل من وحدة صغيرة الى وحدة كبيرة نقسم على ١٠ او ١٠٠ او ١٠٠٠
- محيط المربع = ٤ × طول الضلع
- محيط المستطيل = ٢ × (الطول + العرض)
- مساحة المربع = الضلع × الضلع
- مساحة المستطيل = الطول × العرض
- وحدات المساحة (دونم ، م٢ ، سم٢ ، دسم٢ ، مم٢)
- عند التحويل من دونم ← الى م٢ نضرب ب ١٠٠٠
- عند التحويل من م٢ ← الى دونم نقسم على ١٠٠٠
- وحدات الكتلة (وزن المواد) (طن ، كغ ، غ)
- عند التحويل من طن ← الى كغ نضرب ب ١٠٠٠
- التحويل من طن ← الى غ نضرب ب ١٠٠٠٠٠٠
- عند التحويل من كغ ← الى غ نضرب ب ١٠٠٠
- عند التحويل من كغ ← الى طن نقسم على ١٠٠٠
- عند التحويل من غ ← الى كغ نقسم على ١٠٠٠
- عند التحويل من غ ← الى طن نقسم على ١٠٠٠٠٠٠
- وحدات السعة (للسوائل) (لتر ، مل)
- عند التحويل من لتر ← الى مل نضرب ب ١٠٠٠
- عند التحويل من مل ← الى لتر نقسم على ١٠٠٠
- وحدات المسافة (كم ، م ، سم ، .....)
- وحدات الزمن (ساعة ، دقيقة ، .....)
- السرعة = المسافة ÷ الزمن
- وحدات السرعة (كم / ساعة ، كم / دقيقة ، م / دقيقة ، سم / ثانية)
- وحدات الوقت (ساعة ، دقيقة ، ثانية)

٪٤٣ ١٠:٥٤
للقراءة فقط - The-2st-Exam-4th-grade
سجّل دخولك لتحرير الملف وحفظ التغييرات التي...

Unrwa/ Department of Education

Name: ..... **English Exam** **Fourth grade (A / B)**

Date: ..... **Nazzal. Prep. G/SCH2**

Q1. Read carefully, and then answer: ***(4 pts.)***

Quraysh Street in Amman wasn't a street in the past. *It* was a river. You can see a stone fountain in the street. The fountain is old. In the past, the fountain was bigger. There were mosaics and a pool. The pool wasn't for swimming. The water in the pool was from the river. The houses weren't here in the past. Now you can see the fountain between the houses.

1. Where is Quraysh Street? .....
2. What Was Quraysh Street in the past? .....
3. Was the pool for swimming? .....
4. The underlined pronoun *It* refers to: .....

Q2. Complete the sentences by reordering the letters: ***(2 pts.)***

1. We can learn about the stars and the planets in the .....(ptlenaiuram)
2. ..... is the biggest planet. (Jepiutr)
3. I can swim in the swimming .....(olpo)
4. We live on the planet ..... (aEtrh)
5. The sun is a ..... (tars)

Q3. Copy and complete the punctuation: (. , capitalization): ***(2 pts.)***

in the past the restaurant wasn't here it was a school.

.....

Q4. Re-order these broken sentences: ***(2 pts.)***

1. the biggest / The Earth / isn't / planet

.....

2. called / Our city / Amman / wasn't

.....

Q5. Complete with (was /were): ***(2 pts.)***

١٠:٥٣ ٤٣%
سجّل دخولك لتحرير الملف وحفظ التغييرات التي...

٢) مضلع سداسي طول ضلعه ٩سم, ما محيطه؟

٣) ما محيط مربع طول ضلعه ٦سم؟

٤) مستطيل طوله ٥سم,وعرضه ٣سم أوجد:

١-محيط المستطيل

٢-مساحة المستطيل

٥) قطع احمد مسافة ٢٠٠م في ٥دقق احسب سرعته.

٦) اجد ناتج ما يلي:

١) ٨:٢٠
+ ٢:٥٠

٢) ٩:٢٠
- ٥:٤٠

١٠:٥٣ %٤٣
للقراءة فقط - khtbr-lshhr-lthny-...t-llsf-lrb-fsl-thny
سجّل دخولك لتحرير الملف وحفظ التغييرات التي...

امتحان رياضيات/ش٢

الصف الرابع

١) املأ الفراغ بما يناسبه:

١- ٤كغم =.....غم

٢- ٣٥٠ميليلتر =.....لتر

٣- ٣م=.....سم

٤- ٣٠دسم=.....م

٥- ٢٥دونم=.....م

٦- ١٢كم=.....م

٧- ٣٥ملم=.....سم

٨- ١٥دقيقة=.....ثانية

٩- ١٢٠دقيقة=.....ساعة

١٠- ١٥أسبوع=.....يوم

٢) مضلع سداسي طول ضلعه ٩سم, ما محيطه؟

الاسم: ليلى

مدرسة سيدار النموذجية

ورقة عمل رياضيات رابع

السؤال الأول:

حول وحدات القياس التالية إلى الوحدة المطلوبة:

٥٦٠٠ سم = ☐ م

(٢٢٠٠) م² = ☐ دونم

٦٤ مم = ☐ سم

ساعة وربع = ☐ دقيقة

١٠ كم = ☐ م

(١٥) طن = ☐ كغ

(٦٥٠٠) مم = ☐ دسم

(٤٠٠٠) مل = ☐ لتر

(٨٠٠٠) سم = ☐ م

(١٢٠) غ = ☐ كغ

١٥ دونم = ☐ م²

(٢٠) م = ☐ دسم

٣٠٠٠٠ م² = ☐ دونم

٩ طن = ☐ كغ

السؤال الثاني:

ضع (> ، < ، =) في الفراغ

٦ م ☐ ٤٥ دسم

١٧ لتر ☐ ٩٠٠٠ مل

٤٠٠ دسم ☐ ٤٠ م

٢ طن ☐ ٥٠٠٠ كغ

٣ دونم ☐ ٥٠٠٠ م²

السؤال الثالث: اكتب الساعة بالدقائق (بالأرقام)

☐	☐	☐	☐
الثالثة والربع	الرابعة تمامًا	الخامسة إلا ربع	السادسة والنصف

السؤال السابع: صل القائمة (أ) بما يناسبه في القائمة (ب)

القائمة (أ)	القائمة (ب)
سرعة قطار	٤ مل
طول قلم	كم/ساعة
وزن حوت	الساعة الرابعة والدقائق
وقت إقلاع طائرة	٥ طن
ساعة دفتر	٦ سم
سعة علبة دواء	سم٢

السؤال الثامن:

يراد إحاطة ساحة المدرسة بسياج إذا كان عرض الساحة (٥٠م) وطولها (٧٧م) جد تكلفة السياج إذا علمت أن تكلفة المتر الواحد ٣ دنانير

السؤال التاسع:

قررت عائلة أحمد الذهاب برحلة عائلية إلى العقبة، حيث تستغرق الرحلة ست ساعات إلا ربع (خمس ساعات و٤٥ دقيقة) إذا غادروا منزلهم الساعة الثالثة و٢٠ دقيقة عصرًا في أحد سائق وصلت العائلة إلى العقبة

٪٤٦ ١١:٠٩
نموذج Word اختبار...الثاني لمادة التربية - للقراءة فقط
سجّل دخولك لتحرير الملف وحفظ التغييرات التي...

امتحان الشهر الثاني

الصف الرابع

السؤال الأول:

من خلال دراستك لدرس " الصيام"

١- عرف ماهو الصيام: (علامتان).

٢- لمن اباح الاسلام الافطار في نهار رمضان؟ (علامتان)

٣- اذكر دعاء الافطار في رمضان؟ (علامتان)

السؤال الثاني:

أ. من خلال دراستك لدرس "اتق الله" : (٤ علامات)

١- اكتب الحديث النبوي : اتق الله حيثما كنت .....

٢- من هو راوي الحديث؟

٣-ما معنى اتق الله؟

٤- اتبع السيئة الحسنة؟

السؤال الثالث : من خلال دراستك لدرس صلة الرحم اجب عما يلي؟ (٢ علامتين)

١. اكمل الحديث من كان يؤمن بالله.....

٢. من هو راوي الحديث؟

٣. من هم ذوو الارحام؟

٤. اذكر ثمرات صلة الرحم؟

ولمعان الرياضيات

Lotus flower momani

اسم:

س١: أكمل الفراغ بما يناسبه:

١. ١٢ اسبوع = ____ يوم
٢. ٦ كم = ____ م
٣. ٥٠٠ دسم = ____ م
٤. ٤٢٠٠ مم = ____ دسم
٥. ٤ دونم = ____ م²
٦. ١٢٠ دقيقة = ____ ساعة
٧. ١٥٠٠ كغ = ____ طن
٨. ٨٠٠٠ غ = ____ كغ
٩. ١٠ لتر = ____ مل
١٠. ٢٠٠٠ مل = ____ لتر

س٢: ضع المادة < او > او = :

١. ٥٠٠٠ كم ☐ ٥٠٠٠ م
٢. ٥ دونم ☐ ٤٠٠٠ م²
٣. ٤٠٠٠ دسم ☐ ٤٠ م
٤. ٣ طن ☐ ٤٠٠٠ كغ
٥. ٣ ساعات ☐ ٢٠٠٠ دقيقة
٦. ٦٥٠٠ دسم ☐ ٦٥ م
٧. ٦ اسابيع ☐ ٤٠ يوم
٨. ٤٠٠٠ م² ☐ ٤٠ دونم
٩. ١٨ لتر ☐ ٨٠٠٠ مل
١٠. ٦٤٠٠ غ ☐ ٧ كغ

س٣: اوجد ناتج ما يلي:

١. ٢ طن + ٤٠٠٠ كغ = ☐ كغ
٢. ٧٥٠٠ سم − ٢٤ م = ☐ م
٣. ٦ دونم − ٢٠٠٠ م² = ☐ دونم
٤. ٢٠ دسم + ٣٠٠ مم + ٤٠٠ م = ☐ دسم
٥. ٥ ساعات + ٣٢٠ دقيقة = ☐ دقيقة
٦. ٨ لتر − ٤٠٠٠ مل = ☐ مل
٧. ٢٠٠٠ كم + ٣٠ م + ٢٥٠ دسم = ☐ م

Lotus flower momani

امتحان الطرم

tus flower momani

اسم :.

صف :.

س١ اجب عما يلي :-

١. من فوائد النباتات البذرية ١. _____

٢. _____ ٣. _____ ٤. _____

٢. من النباتات الطبية ١. _____ ٢. _____ ٣. _____ ٤. _____

٣. تصنف النباتات الزهرية حسب بذورها الى ١. _____ مثل _____

٢. _____ مثل _____

٤. شكل اوراق نبات الزيتون _____

٥. النباتات مغطاة البذور هي _____

٦. الصنوبر يستخدم في صناعة _____ و _____

٧. تنقل حبوب اللقاح من المخاريط الذكرية الى المخاريط الانثوية بوساطة _____

٨. تتميز غابات الصنوبر ب ١. _____

٢. _____

وتنتشر اشجارها في _____ و _____ و _____

٩. شكل العروق في اوراق النباتات يكون _____ مثل _____

وبعض العروق تكون _____ مثل _____

١٠. حجم المخروط الانثوي _____ من المخروط الذكري

س٢ بعد ملاحظة الشكل (أ) والشكل (ب) اجب عن الاسئلة التالية :-

١. الشكل ب المخروط _____

٢. الشكل أ المخروط _____

٣. ينتج الشكل أ _____

٤. ينتج الشكل ب _____

٥. عضو التكاثر في النباتات (الشكل أ) هراء البذور _____

٦. تكون البذرة داخل الشكل _____ المخروط _____ وهذه البذرة تكون _____

الشكل

Lotus flower momani

اكتب الساعة بالدقائق ارقاماً :

:	:	:	:	:
التاسعة وثلث	الثامنة ونصف الأخمس دقائق	الواحدة الا ربع	الخامسة وثلث	السادسة والربع

اكتب بالكلمات الساعات الآتية :

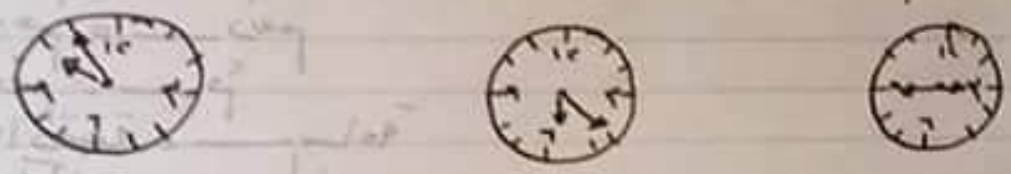

_____ _____ _____

اختر وحدة القياس المناسبة لكل مما يأتي :

أ. سرعة سيارة _____ ، سرعة نملة _____

ب. سعة علبة دواء _____ ، سعة علبة عصير _____

ج. وزن خروف _____ ، وزن شاحنة محملة بالحديد _____

د. طول مسطرة _____ ، طول غرفة الصف _____

هـ. عرض صابونة _____ ، عرض ملعب رياضي _____

و. وزن كتاب _____ ، وزن طالب صف رابع _____

ز. المسافة بين الزرقاء وعمان _____ ، سرعة طفل في بداية المشي _____

ح. سعة خزان ماء _____ ، مساحة منزل _____

مستطيل طول ٦ سم وعرضه ٨ سم جد

أ. محيط المستطيل ؟

ب. مساحة المستطيل ؟

ame:,

نموذج (1) Exam English

Lotus flower
momani

- Read the paragraph and match:,

Nader walked in the desert. He saw many Camel
there, The Camels were very big, with long leg
and long necks, Nader liked watching the camels, h
learned alot about them, The Camels helped Nader

1. Nader walked
2. He liked
3. the Camels helped
4. Nader learned
5. The camels

a. alot about camels
b. him
c. very big, long le
d. watching the cam
e. in the desert

Complete the sentences correctly:,
(stage / tents / visited / sewed, used)

1. The women _____ beautiful clothes
2. We _____ museum.
3. He was on the _____ of the Roman Theatre.
4. In the desert, people lived in _____
5. They _____ goats hair for the tents

Negate the following sentences using (didn't):
We used mobile phone

_____

we watched DVDs

_____

you listened to the radio last week

_____

Lotus flower mamani

١. من الأمثلة على النباتات معراة البذور _____

٢. شكل الأوراق في النباتات معراة البذور _____

٣. انظر الى الشكل الآتي واجب عما يلي :-

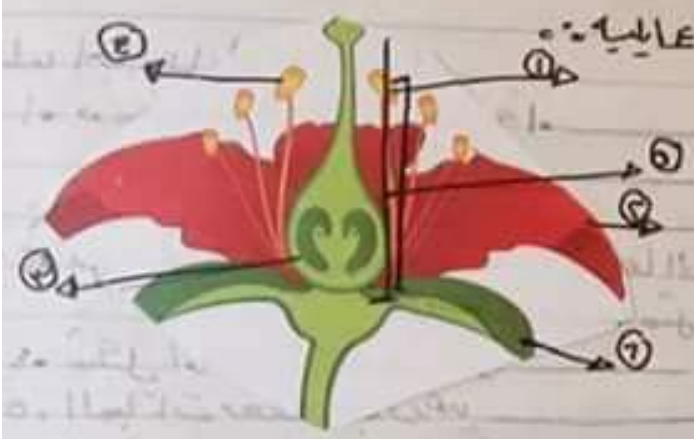

أ. اكتب الاجزاء المشار اليها

١. _____

٢. _____

٣. _____

٤. _____

٥. _____

٦. _____

٢. وظيفة الجزء ٤ ؟ _____

٣. وظيفة الجزء ٧ ؟ _____

٤. عضو التكاثر في النباتات الزهرية _____

٥. تكون اوراقها النباتات الزهرية _____

٦. من الأمثلة على النباتات الزهرية _____ وتكون بذورها _____ الثمرة

٧. صنف اسماء النباتات الزهرية الى نباتات ذات فلقة وذات فلقتين :

"الخوخ ، الفول ، التفاح ، العنب ، الموز ، قمح ، ذرة ، النخيل ، الارز ، حمص ، شعير"

ذات فلقة :- _____ _____ _____ _____

ذات فلقتين :- _____ _____ _____ _____

٤. اكمل الجدول الآتي :-

صفات النبات	الصنوبر	البرتقال
شكل الأوراق		
الأعضاء التكاثر		
البذور (مغطاة / معراة)		

س: ضع اشارة (✓) امام العبارة الصحيحة واشارة (X) امام العب

١. بعض انواع الصنوبر تستخدم في صناعة الصابون ( )

٢. يعتبر البلوط من النباتات الطبية ( )

٣. تتكون بذور الصنوبر في المخروط الذكري ( )

٤. العدس من ذوات النباتات ذات الفلقتين ( )

٥. النباتات مغطاة البذور اوراقها أبرية وتكون ازهارا ( )

٦. نباتات معراة البذور تكون بذورها مكشوفة ( )

٧. نستخرج من بعض النباتات الزيوت في صناعة الادوية ( )

٨. يبدأ النبات البذري حياته من البذرة ( )

٩. شكل العروق في نبات التين عروق متوازية ( )

١٠. النباتات معراة البذور اوراقها أبرية وتكون ازهارا ( )

Lotus flower momaki

Q4 Read and answer about using didn't

1. you listened to a CD last week

_____

2. you traveled to Wadi Rum last year

_____

3. I played Football

_____

Q5 Read and answer the following

1. we didn't stay in a tent

_____

2. I travelled on Camels

_____

3. we didn't look at stars

_____

Lotus Flower

Lotus flower ~~[illegible]~~ Quiz 2 Exam English

name:

1 Read the paragraph and answer the question

* Last year, we didn't travel to the beach for holiday. We didn't stay in a hotel. We stayed in a in Wadi Rum for a week! I think that there w hundred stars! We travelled on Camels. Kare

1. Kareem and Samira travelled to the beach for their hoilday (T. F)
2. they stay in a tent (T. F)
3. They stayed in a tent for 3 week (T. F)
4. They travelled by a camel in the desert (T.

2 Write the meaning of the following words:

1. beach _____
2. Village _____
3. liked _____
4. Visited _____
5. radio _____
6. Wash _____
7. Camel _____
8. Clothes _____
9. prepared _____
10. tent _____

Complete the sentences correctly

(Liked, mobile Phone, village, learned, bak

1. We _____ about petra
2. we lived in _____
3. I _____ School today
4. we didn't use _____ in the past
5. The woman _____ bread

Read the following and match

1. Father	a. grandpa
2. grand Father	b. Mother
3. Mum	c. grandma
4 grand mother	d. Dad

Write the meaning of the following word

1. Village _____	6. baked _____
2. desert _____	7. mobile phone
3. walked _____	8. goats _____
4. tents _____	9. brush _____
5. sewed _____	10. Carry _____

Lotus Flower

امتحان اللغة العربية

الاسم:

الصف:

نموذج ٤

Flower Moment

س١: اقرأ النص التالي واجب عما يلي:

"يعود الفضل في اختراع ضمادات الجروح الى (ايرل ديكسون) الذي فكر لمعالجة زوجته في أثناء عملها في المطبخ، حظي ديكسون بتقدير شركته، وم ترقية" بفضل اختراعه الذي انتشر في اصقاع الارض

١. ما معنى المفردات التالية: اصقاع الارض _____

ضمادات _____ ، اخترع _____

٢. استخرج من النص: همزة وصل _____ ، همزة قطع _____

فعل ماض _____ ، فعل وضارع _____ ، جمع تكسير _____

٣. بم حظي ديكسون بفضل اختراعه؟

_____

٤. من اخترع ضمادات الجروح؟ _____

٥. ما اسم الدرس الذي أخذ منه النص؟ _____

س٢: صل بخط مما يناسبه من العمود الاول بمعناها في العمود الثاني:

مدواة	المرتفعة
أعوان	معالجة
الشامخة	مساعدون
مشتة	صيدلية

س٣: استخدم ملاذا في الجمل التالية

١. عاتب القاضي المذنب لأنه لا ملاذ له

٢. شرطي المرور ينظم السير منعاً للحوادث

س٣: صل بخط جمانا سبة في العمود الاول. معناها في العمود الث

افتقر	يتنازعون
يختصرون	صعوبة
البديعة	المعهد للسير
المجد	آثار في الجلد دون اسالة د
خدوش	الجميلة

س٤: املأ الفراغ جمانا سبة :-
(ا، أ، ث، ؤ، لعل، ليت، وان)

١. ـــ القدس معروفة
٢. ـــ القلوب متحابة
٣. ـــ ستحل المواد الكيمائية بحذر
٤. ـــ رجع علي الكتاب الى المكتبة
٥. يسـ ـل المعلم سؤالا
٦. يوجد فـ ـات عمرية مختلفة
٧. زيارة المعالم الحضارية فوائد كثيرة
٨. ـ ـ يد طالب نشيط
٩. ـــ الربيع جميل
١٠. ـــ نتبه الى حركة السيارات

Lotus flower momani

امتحان اللغة العربية

نموذج 1

otus flower manari

سم :

صف :

س اقرأ النص التالي وأجب عما يليه :

ينتشر في ربوع الأردن معالم حضارية كثيرة معطرة بروائح التاريخ القديم
شهرها مدينة أم قيس ، تقع في شمالي الأردن واحدة من أبهى المعالم الحضارية
سمى (جدارا) ، ويرى الزائر في أرجاء المدينة عدداً من الحمامات والبرك ال
كانت أرضياتها مرصوفة بالفسيفساء »

- ما معنى المفردات : - أبهى : _____ ، أرجاء : _____

- استخرج من النص : اسم تفضيل _____ ، فعل مضارع _____

. جمع تكسير _____ ، جمع مؤنث سالم _____ ، اسم موصول _____

حرف جر _____ ، اسم مجرور _____

- ماذا كانت أم قيس تسمى قديماً ؟ _____

- اين تقع أم قيس ؟ _____

. سم ثلاثة مناطق سياحية في الأردن ؟ _____ _____ _____

س اكتب مقطع من قصيدة خافت في المعالي من ؟

س املأ الفراغ في كل مما يأتي بكلمة مناسبة :

(ممتعة / الوفاء / طلباً / الظلم / أجمل)

- إن _____ زائل

- ليت _____ منتشر

- الصحراء الأردنية واحدة من _____ الصحارى

- لحل المسابقة _____

- سعى الرجل في البلاد _____ للرزق

3 lotus flower marwani

١. من هو راوي الحديث ؟ _____

ب. ما معنى المفردات :-

سبحان الله :- _____

ثقيلتان في الميزان :- _____

ج. لمن البشارة بذكر الله تعالى ١. _____

٢. _____

٣. _____

س٢ من خلال دراستك للحديث « ما أكل أحد طعاماً قط خيراً من أن يأكل من عمل يده »

من هو راوي الحديث ؟ _____

كانت مهنة الأنبياء ← محمد صلى الله عليه وسلم يعمل في _____

داود عليه السلام يعمل في _____

الزبير بن العوام رضي الله عنه يعمل في _____

س٣ أجب مما يلي :-

١. الصيام هو _____

٢. من أسماء يوم القيامة _____ و _____

٣. أنواع السجود ١. _____

٢. _____

٣. _____

٤. يكون الشك في الصلاة _____

٥. من مظاهر عظمة الله تعالى _____

٦. فضائل الصيام مضاعفة ١. _____

٢. _____

٣. _____

٧. ثمرات الإيمان بأن الله تعالى عظيم ١. _____

٢. _____

٨. آداب وسنن الصيام ١. _____

٢. _____

٣. _____

عما فرق في المعنى ← اذا مرض أحدهم عاده

عاد صديقي من السفر

س: املأ الفراغ بما يناسبه :-

(ا ، أ ، ث ، و ، لعل ، ليت ، قريب ، رفقاً ، إن)

١- يزور صفات الصباح وادي كل يوم

٢- المعلم يـ ازر الطلاب بالنشاطات

٣- ـــ السماء مصطرة ذهبيا

٤- ـــ الخير سار

٥- ـــ الظلام سالك

٦- إن الفرج ـــــــ

٧- نساعد كبار السن ـــ بهم

٨- ـــ جلس امام الحاسوب جلسة معتدلة

٩- ـــ ستقبل أحمد حنيفة بعفاوه

١٠- سل [redacted] المسـ ـلة سهل

س: الحب مقطع من قصيدة خافق في المعاني والمنى ؟

لا أكمل قوله تعالى "واصحب اليمين ... الى قوله تعالى مخرشة مرفوعة"

lotus flower momani

امتحان التربية الإسلامية

lotus flower
momani

أ :
ب :

ل قوله تعالى "هل أتاك حديث الغاشية ..... الى وزرابي مبثوثة" ..

ما معنى المفردات التالية :-
ناعمة : _____ ، خاشعة : _____
عين آنية : _____ ، زرابي : _____

من الآيات الكريمة ما جزاء الكافرين وثواب المؤمنين ؟
اد الكافرين : ١. _____
٢. _____
٣. _____
راب المؤمنين : ١. _____
٢. _____
٣. _____

ل اكمل :- قال رسول الله (ﷺ) "كلمتان ..... العظيم"

Lotus flower moment

س١: عرف ما يلي :-

١. الحياء هو _____

٢. البيئة هي _____

٣. المسؤولية هي _____

٤. الحوار الناجح هو _____

٥. الاحترام هو _____

س٢: ضع اشارة (✓) امام العبارة الصحيحة واشارة (X) امام العبارة الخ

١. يعتبر الصدق من الاخلاق الحميدة التي يجب علينا ان نتصف بها ( )

٢. طلب مني أحد زملائي أن أساعده في الامتحان ( )

٣. من واجبي أن أحترم معلمي واستمع الى ما يقول ( )

٤. يجب علينا رمي النفايات من نافذة السيارة للمحافظة على السيارة ( )

٥. المساهمة في توفير الماء ومنها الاشجار من مظاهر احترام القوانين والنظمة ( )

٦. الحوار هو الطريقة الفضلى لحل الخلافات بين الافراد ( )

٧. المحافظة على ترتيب البيت من مسؤولياتي في بيتي ( )

٨. أساعد أخي الصغير في دروسه ولعاقبه عند عدم الرد في كل الاوقات ( )

٩. يكون الحياء المادي كأن يشعر الغني بالفقير ( )

١٠. من واجبي أن اكمل مسؤولياتي واقوم بالواجبات المترتبة علي ( )

س ضع اشارة (✓) امام العبارة الصحيحة واشارة (X) امام العبارة الخاطئة

١- الصيام يعود المسلم على حسن الاخلاق ( )

٢- يؤدي المسلم سجود التلاوة اذا اصابه بلاء ( )

٣- يكون الزيادة في الصلاة مثل تراخي التشهد الاوسط من دون قصد ( )

٤- أتسحر في رمضان حتى اتمكن من النوم في النهار ( )

٥- الصحابي عبد الرحمن بن عوف وابو بكر الصديق رضي الله عنهما يعملان في البقاره ( )

٦- نادى المؤذن لصلاة الظهر يوم الجمعة والناس في البيت ( )

٧- يكون تعظيم الله تعالى بتلاوة القرآن الكريم ( )

٨- الباب الذي يدخل منه الصائمون يوم القيامة هو باب الريان ( )

٩- ذكر الله تعالى يبعد الانسان عن الغيبة والنميمة ( )

١٠- سجود الشكر تكون سجدة واحدة يؤديها المسلم اذا حصل له نعمة او بلاء ( )

Lotus Flower mamani

مالتوميق

Lotus flower
moman1

امتحان التربية الاجتماعية

الاسم :-
الصف :-

س١ أجب عما يلي :-

١. آداب الحوار ١. _____ ٢. _____ ٣. _____
٢. أنواع العطاء ١. _____ ٢. _____
٣. من صور احترام الجار ١. _____
٢. _____
٣. _____
٤. أثر الصدق على الفرد والمجتمع ١. _____
٢. _____
٣. _____
٥. من صور الأمانة _____
٦. أشكال الصدق ١. _____ ٢. _____ ٣. _____
٧. من صور احترام الوالدين ١. _____
٢. _____
٣. _____
٨. اسباب نشوء الخلافات بين الاشخاص ١. _____
٢. _____ ٣. _____
٩. من فوائد الحوار ١. _____ ٢. _____ ٣. _____
١٠. من مسؤولياتي في مدرستي ١. _____
٢. _____
٣. _____
١١. من مسؤولياتي في وطني ١. _____
٢. _____
٣. _____
١٢. اخط مثالا على العطاء المعنوي _____
١٣. أنا اردني أحب وطني الاردن الذي منحني _____ و _____
١٤. يكون الانسان أمينا حين _____

Lotus flower manar?

ـلاث غرفة مربعة الشكل طول ضلعها ٣٨ سم جد :

أ. محيط الغرفة؟

ب. مساحة الغرفة؟

ـ تريد عائلة الذهاب الى رحلة في جبال عجلون حيث تستغرق ا
ساعتين وعشرون دقيقة ولكن وقت اي انطلاق من البيت الساعة ٩ صباحا
ساعة وقت الوصول ؟

ـ سجادة مستطيلة الشكل طولها ٣م وعرضها ٢م اذا كان سعر المتر
٤ دنانير ما ثمن السجادة؟

ـ تم إجراء سباق بين طالبين في الصف ٩ أ ، الطالب الاول أنهى ا
في دقيقة وخمسون ثانية والطالب الثاني انهى السباق في دقيقة وأربعو
من الاسرع بينهما ؟

ـ اذا كانت سرعة طفل في بداية مشيه ٥ دقيقة/م وكانت سرعة طفل
في بداية مشيه ٦ دقيقة/م أيهما أسرع ؟

مربع اذا كان محيطه ٤٠م ما هي مساحته؟

Lotus flower momani

١٣. من الأدوات والتجهيزات المخصصة لتربية الدجاج البلدي ١. _____

٢. _____

٣. _____

٤. _____

١٤. نستفاد من المنتجات الثانوية في إنتاج ١. _____

٢. _____

١٥. نستفاد من تربية الأغنام ١. _____

٢. _____

٣. _____

١٦. دجاج البيض _____ عن دجاج اللحم وحجم العرف ولونه لدجاج البيض _____ من دجاج اللحم

١٧. تتميز حليب الماعز _____ واحتوائه _____

١٨. انظف حذائي يومياً واضعه _____

١٩. الجمعيات الخيرية تقوم على _____

٢٠. التعاون داخل الأسرة يكون على ١. _____

٢. _____

٣. _____

٢١. فوائد خزانة الملابس _____

٢٢. الملابس التي لا نستخدمها يجب حفظها _____

٢٣. الحيوانات المنزلية تحتاج إلى _____

٢٤. تكون الأرضية في بيوت الدجاج البلدي _____ ليسهل _____

٢٥. تصنع المشاش البيض من _____ أو _____ أو _____

٢٦. من المنتجات التي يمكن صناعتها من حليب الغنم _____ و _____ و _____

٢٧. من أنواع الأعلاف التي توضع للغنم في المحالف _____ و _____ و _____

Lotus flower momani

Lotus Flower
moment

امتحان التربية المهنية

الاسم :-

الصف :-

س عرف المصطلحات التالية :-

١. التعاون هو: _____

٢. بطاقة بيان الملابس هي: _____

٣. زرق الطيور : هو: _____

٤. الحيوانات المنزلية المنتجة هي :- _____

٥. اعشاش البيض هي : _____

٦. المخلفات العضوية النباتية :- _____

٧. الزبل البلدي هو : _____

س اجب عما يلي :-

١. يتم فحص مناقير دجاج البيض في المزارع لـ _____

٢. من طرق العناية بالملابس لـ _____

٢. _____

٣. _____

٣. يجب ازالة أي بقعة عن الملابس فوراً حتى _____

٤. من صور التعاون في المجتمع ١. _____

٢. _____

٥. المؤسسات التعاونية في الاردن تؤسس _____ و _____

٦. من الطيور التي تربى في المنازل _____ و _____ و _____

٧. حيوانات منزلية غير منتجة _____ و _____ و _____

٨. حيوانات منزلية منتجة _____ و _____ و _____

٩. تنتشر تربية الدجاج في المملكة الاردنية الهاشمية لـ ١. _____

٢. _____

١٠. لا يتم شرب حليب الماعز الا بعد غليه جيداً لـ _____

١١. المعالف والمشارب المخصصة لتربية الدجاج مصنوعة من _____

١٢. يراعى في بيوت الدجاج ان تكون فيها فتحات تهوية لـ _____

Lotus Flower
moment

امتحان التربية المهنية

الاسم :-

الصف :-

س عرف المصطلحات التالية :-

١. التعاون هو: _____

٢. بطاقة بيان الملابس هي: _____

٣. زرق الطيور : هو: _____

٤. الحيوانات المنزلية المنتجة هي :- _____

٥. اعشاش البيض هي : _____

٦. المخلفات العضوية النباتية :- _____

٧. الزبل البلدي هو : _____

س اجب عما يلي :-

١. يتم فحص مناقير دجاج البيض في المزارع لـ _____

٢. من طرق العناية بالملابس لـ _____

٢. _____

٣. _____

٣. يجب ازالة أي بقعة عن الملابس فوراً حتى _____

٤. من صور التعاون في المجتمع ١. _____

٢. _____

٥. المؤسسات التعاونية في الاردن تؤسس _____ و _____

٦. من الطيور التي تربى في المنازل _____ و _____ و _____

٧. حيوانات منزلية غير منتجة _____ و _____ و _____

٨. حيوانات منزلية منتجة _____ و _____ و _____

٩. تنتشر تربية الدجاج في المملكة الاردنية الهاشمية لـ ١. _____

٢. _____

١٠. لا يتم شرب حليب الماعز الا بعد غليه جيداً لـ _____

١١. المعالف والمشارب المخصصة لتربية الدجاج مصنوعة من _____

١٢. يراعى في بيوت الدجاج ان تكون فيها فتحات تهوية لـ _____

مع فائق الشكر والتقدير

Subject:

السؤال الثاني : صل الكلمة في العمود الأول بما يناسبها في المعنى في العمود الثاني :

تقدّم	اكتشف
اخترع	رمى
تحسين	تطوير

السؤال الثالث : ضع سؤالاً على الإجابة الآتية :

- زار محمد قلعة الكرك يوم الأربعاء .

- ماذا زار محمد يوم الأربعاء ؟

السؤال الرابع : اعرب ما تحته خط :

- لا تقترب من الأخطار متؤذي نفسك .

لا : لا ناهية

تقترب : فعل مضارع مجزوم وعلامة جزمه السكون .

بسم الله الرحمن الرحيم

امتحان تدريبات شهر تالي

السؤال الأول: بعد قراءتك للنص السابق أجب يا بني:

عمل عمر فاحصاً في المدينة سنة كاملة لم يختصم إليه أحد فيها، حتى جاء يوماً إلى أبي بكر طالباً إعفاءه من القضاء، فسأله أبو بكر مستغرباً: أمن مشقة القضاء تطلب الإعفاء يا عمر؟ فأجابه عمر: يا خليفة رسول الله، لا حاجة لي عند قوم مؤمنين، عرفت كل منهم ماله من حق فلم يطلب أكثر منه، وما عليه من واجب فلم يقصر في أدائه.

١- جار ومجرور من القضاء ٢- ظرف مكان عند

٣- فعل مضارع مجزوم لم يختصم ٤- جمع مذكر سالم مؤمنين

٥- كلمة منونة بكر/طالباً/أحد

الاسم: [illegible]

بسم الله الرحمن الرحيم

امتحان تربية مهنية شهري ثاني

مدرسة الحق بعلو

٢٠

السؤال الأول: املأ الفراغ بما هو مناسب في ما يأتي:

١- التعاون يعرف بأنه: سلوك اجتماعي نبيل يتضمن قيم مجموعة من الأفراد معاً لإنجاز عمل ما.

٢- من فوائد خزانة الملابس: يعلق ويرتب الملابس ----

٣- من أهداف المقصف المدرسي: ① تعزيز مفهوم الاستثمار ---- ② توفير حاجات الطلبة من الغذاء بأسعار مناسبة وبنوعية جيدة.

٤- عدد أسهم الطالب الواحد في مقصف المدرسة قسمة اسهم ----

٥- من فوائد الكهرباء: ① توفير الوقت والجهد ---- ② انجاز العمل بسهولة ----

السؤال الثاني: صمم شعار المقصف المدرسي؟

علامتان

أنت درة مصونة مدهشة

ادخار — تعاون — استثمار

زد الله قلبك

يوم الجمعة

اليوم: الثلاثاء
التاريخ: 19/

الامتحان الثاني
لمادة العلوم
الصف الرابع

اسم الطالب (ة):

صديق فلاورنيس و

١٨

س١

(أ) وضح المقصود بالمفاهيم التالية:-

(١) النباتات الطبية: تعالج الأمراض

(٢) نباتات وحفاظ البذور: تنتج حبوب اللقاح من العضو الذكري مع البويضات والذلك سميت بالنباتات البذور مثل الخوخ والعنب والتفاح.

(ب) أملئ الفراغ بالكلمة المناسبة:-

(١) عضو التكاثر لنبات الصنوبر هو الذكري.

(٢) تنتج المخاريط الذكرية حبوب اللقاح التي تنتقل عن طريق الرياح إلى المخاريط الأنثوية.

(٣) تصنف النباتات الزهرية حسب بذورها إلى:-

(١) نباتات ذي فلقة ... مثل (١) ذرة
(٢) القمح

(٢) نباتات ذي فلقتين ... مثل (١) فول
(٢) خوخ

(٤) أهمية النباتات البذرية (١) الكاكاو ... (٣) القش
(٢) الزيوت ... (٤) العلاج

(٥) من الأمثلة على النباتات الطبية (١) النعناع (٢) البابونج
(٣) الميرمية

٦) للنباتات دور مهم في ① منع انجراف التربة

② تنقية الهواء

③ جمال البيئة

س١ اكتب اسم الجزء (العضو الأنثوي / العضو الذكري / سبلات / بتلات)

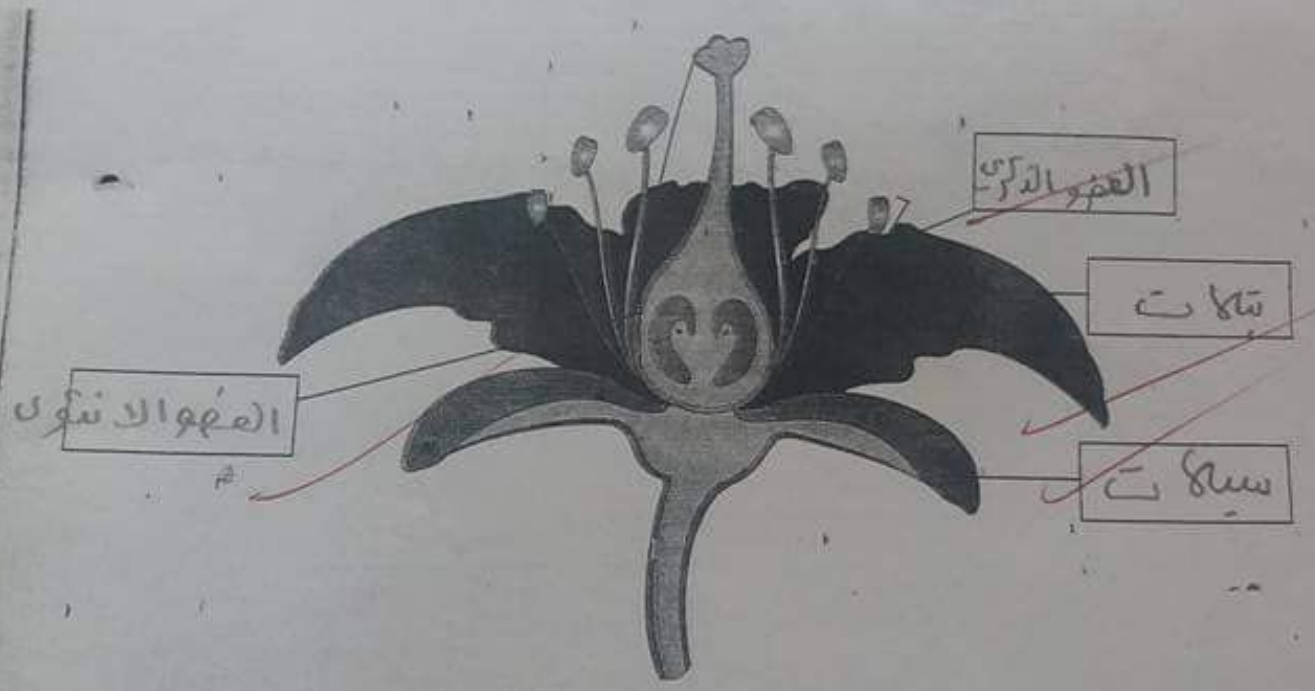

تمنياتي لكم بالتوفيق

صفاري

معلمتكم: شيماء الزيا

٨:٥٨ ص ٦٤%
اختبار-الشهر-الثاني-لغة-انجليزية-
للصف-الرابع-فصل-ثاني...

2-Read and complete:-

Used - visited - learned - lived - sewed

1. We visited ----------a zoo.
2. We ----------about how people----------in the past.
3. The women---------clothes.
4. They -----goat's hair for the tents. (4points)

3-Look and say:-

1-Yesterday ,Mum---------- her bedroom.

2-Yesterday the boy-- ---------- --- TV.

3-Yesterday the man---------- his car.

4- Yesterday the boy ---------- his teeth.

5- Last week the boy---------- . (5 points)

THE END

WITH MY BEST WISHES

4-Write a bo

تم النسخ إلى الحافظة

I was ill yesterday. I didn't enjoy my day in bed !

٨:٥٨ ص ٦٤%
اختبار-الشهر-الثاني-لغة-انجليزية-
للصف-الرابع-فصل-ثاني...

I was illyesterday. I didn't enjoy my

day in bed i

1-Ididn,t----------.

2-I----------

3-I----------

4-I----------

5-I---------- (5 points)

٨:٥٧ ص ٦٤%
اختبار-الشهر-الثاني-علوم-للصف-الرابع-فصل-ثاني-2016.doc

مدرسة سال الأساسية المختلطة الأولى

امتحان التقويم الثاني لمبحث العلوم للصف الرابع

الاسم : _____ الأربعاء 27/4/2016

❖ **السؤال الأول :** أجيب عما يلي :

1 - اذكري خمسة من فوائد النباتات.
(5علامات)

2- اذكري ثلاثة من النباتات الطبية . ( )
(3علامات)

ج- صنفي النباتات التالية إلى ذوات الفلقة أو ذوات الفلقتين (4علامات)
)

- الفول : -
الذرة :
- الفاصولياء : - البلح :

❖ **السؤال الثاني :** بعد ملاحظة الشكلين (أ) و (ب) أجيبي عن الأسئلة التي تليها : (8 علامات)

1- ما الذي يظهر في الشكل أ ؟

2- ما الذي يظهر في الشكل ب ؟
3- ما وظيفة العضو في الشكل ب ؟
4- في أي الشكلين تتكون البذور ؟
5- ما مجموعة النباتات التي تمثلها الصورة ؟
6- اعطي مثالين على نباتات تتكاثر بهذا الطريقة .
7- ما العضو في النباتات المغطاة البذور الذي يقوم بنفس وظيفة العضوين (أ) ب) .

٨:٥٧ ص ٦٤%
اختبار-الشهر-الثاني-علوم-للصف-الرابع-فصل-ثاني-2016.doc

1- ما الذي يظهر في الشكل أ ؟

2- ما الذي يظهر في الشكل ب ؟
3- ما وظيفة العضو في الشكل ب ؟
4- في أي الشكلين تتكون البذور ؟
5- ما مجموعة النباتات التي تمثلها الصورة ؟
6- أعطي مثالين على نباتات تتكاثر بهذا الطريقة .
7- ما العضو في النباتات المغطاة البذور الذي يقوم بنفس وظيفة العضوين (أ / ب) .

انتهت الأسئلة ♡آلاء العقول ♡

تم النسخ إلى الحافظة

٨:٥٧ ص ٦٤%
اختبار-الشهر-الثاني-علوم-للصف-الرابع-فصل-ثاني.docx

مدرسة التقويم الثاني - ف2 2014 - 2015 المادة : العلوم

إسم الطالب : ..... الصف الرابع ( ) الأربعاء 8 / 4 / 2015

السؤال الأول : ضع دائرة حول رمز الإجابة الصحيحة لكل مما يلي : (7 علامات)

1 - تمتاز النباتات معراة البذور بأن أوراقها : أ - منبسطة ب - إبرية

2 - البذور في النبات مغطى البذور تكون : أ - داخل الثمرة ب - على سطح الثمرة

3 - السرو نبات يعتبر من النباتات : أ - معراة البذور ب - مغطاة البذور

4 - المخروط الذكري في نبات الصنوبر : أ - كبير الحجم ب - صغير الحجم

5 - النباتات مهمة في : أ - تخفيف تلوث الهواء ب - زيادة الجراف التربة

6 - يعتبر نبات البصل من نباتات : أ - الحوليات ب - ذات الحولين

7 - تنتقل حبوب اللقاح في نبات الصنوبر عبر : أ - الهواء ب - الحشرات

(6 علامات) السؤال الثاني : تأمل الشكل التالي وأجب عن أسئلته :



1 - حدد عمر كل من النبات في المرحلة :

(أ) .....

(ب) .....

(ج) .....

2 - ما الأساس الذي اعتمدت عليه في تحديد عمر النبات في الفرع (1) ؟

3 - هل يعتبرهذا النبات من النباتات الحوليات أم المعمرة ؟

(7 علامات) السؤال الثالث : صنف النباتات التالية حسب الجدول المرفق :

(البندورة - بنجر السكر - الفاصولياء - اللوز - المشمش - الفول - البصل)

الحوليات	ذات الحولين	المعمرة

إنتهت الأسئلة

٨:٥٦ ص ٦٤%
اختبار-الشهر-الثاني-دين-للصف-الرابع-فصل-ثاني.docx

امتحان الشهر الثاني

الصف الرابع

السؤال الأول:

من خلال دراستك لدرس " الصيام"

1- عرف ماهو الصيام؟ (علامتان).

2- لمن اباح الاسلام الافطار في نهار رمضان؟ (علامتان)

3- اذكر دعاء الافطار في رمضان؟ (علامتان)

السؤال الثاني:

1. من خلال دراستك لدرس "اتق الله" : (4 علامات)

1- اكتب الحديث النبوي : اتق الله حيثما كنت _____

2- من هو راوي الحديث؟

3- ما معنى اتق الله؟

4- اتبع السيئة الحسنة؟

السؤال الثالث: من خلال دراستك لدرس صلة الرحم اجب عما يلي؟ (2 علامتين)

1. اكمل الحديث من كان يؤمن بالله..... _____

2. من هو راوي الحديث؟

3. من هم ذوو الارحام؟

4. اذكر ثمرات صلة الرحم؟

٨:٥٧ ص ٦٤%
اختبار-الشهر-الثاني-رياضيات-للصف-الرابع-فصل-ثاني.docx

امتحان رياضيات/ش2
الصف الرابع

1) املأ الفراغ بما يناسبه:

1- كغم =.....غم

2-350ميليلتر=.....لتر

3-3م=.....سم

4-3دسم=.....م

5-25دونم=.....م

6-12كم=.....م

7-35ملم=.....سم

8-15دقيقة=.....ثانية

9-120دقيقة=.....ساعة

10-15أسبوع=.....يوم

2) مضلع سداسي طول ضلعه 9سم, ما محيطه؟

١٢:١٢ ص ٧٧% H
سجّل دخولك لتحرير الملف وحفظ التغييرات ا...

2. Old women sewed traditional costumes.

a-

b-

c-

B. Read and complete:

(3 points)

Collection - motorbikes - morning - evening

1. The museum opens in the .....
2We,re going to learn about the oldest cars in the.....
3. You can see ..... the museum.

PART THREE

Question Three: Focus on Language and Structures
(5 points)

A. 1- Complete the following comparative sentence :- (2 marks)

A- Ali is ..... Ahmad. (tall)
B- Gold is ..... silver. (expensive)

2- Correct the verbs between brackets:-(3 marks):

A- She ..... Aqaba next weekend.(go)
B- ..... you..... to Petra last year? (go)
C-He ..... football every week. (Play)

B. 1-**Write the correct time in front of each picture(3points)**

←

Question Four: Focus on (2 points)

A. Write about yourself:- (3 points)

١٢:١٢ ص ٧٧%
سجّل دخولك لتحرير الملف وحفظ التغييرات ا...

B. 1-Write the correct time in front of each picture(3points)

Question Four: Focus on (2 points)

A. Write about yourself:- (3 points)

1- What are you going to do ?

2-What was your favourite day in the holiday?

THE END

١٢:١٢ ص %٧٧
سجّل دخولك لتحرير الملف وحفظ التغييرات ا...

20

The Ministry of Education
The Education Directorate of---------
Second Exam- first Term
Class: fifth Grade

(Action Pack 5)
English Language
Date:
Name: .....

PART ONE

Question One: Reading Comprehension:-
(5 points)

-Read the following text **carefully** and then answer all the questions below

We arrived at the Royal Automobile Museum at five to ten. It's ten o'clock now and the museum is open. We're going to learn about the oldest cars and the oldest motorbikes. The oldest car is more than one hundred and twenty years old. The old motorbike is more than one hundred years old.

11- When did they arrive to the museum?

.....

2-What did they learn about?

.....

3- The oldest car is more than:-
a- 120 years old b- 100 years old
4-Extract the following:-
A- Noun:-..... B- Preposition: .....

PART TWO:-

Question Two: Focus on Vocabulary
(5 points)

A. Look, read and choose: (2 points)

1. He is kind:-

a. b-. c.

2. Old women sewed traditional costumes.

a- b- c-

١٢:١٣ ص %٧٧
امتحان انجليزي شهر2 شف 6 - للقراءة فقط
سجّل دخولك لتحرير الملف وحفظ التغييرات ا...

تم التحميل من موقع الاوائل

20

The Ministry of Education
The Education Directorate of———
Second Exam first Term

English Language (Action Pack 6) Class: Sixth Grade
Date:
Name: .....

PART ONE

Question One: Reading Comprehension (5 points)

-Read the following text **carefully** and then answer all the questions below:

I live in Ajloun in Jordan .It's .It's a beautiful city. There are hills and valleys .There's a big forest, too.
There are lots of interesting trees and plants in the forests and many animals live there.
Ajloun has a famous castle. It, s very old .You can't see tall skyscraper here.

1. Ajloun is in the -----of Jordan. a. north b. west c. south (1 point)
2. Mention three things you can find in Ajloun ?. (1.5 points)
   a- ---------- b---------- c----------
3. What is the weather like in Ajloun ?
   ---------- (1 point)
4- There are tall skyscrapers in Ajloun . a- Yes b- No, c-? (.5 points)
5- **The underlined pronoun refers to**---------- (1 point)

PART TWO

Question Two: Focus on Vocabulary (5 points)

1-Write one sentence about each picture :- (2 points)

١٢:١٤ ص %٧٧
سجّل دخولك لتحرير الملف وحفظ التغييرات ا...

B. Read and complete: (3 points)

hill - Pyramid - building - Coral reef

1. There's a beautiful ..... in the sea.
2. There's a great ----------in Egypt.
3. There is a big---------in Umm Qais.

PART THREE

Question Three: Focus on Language and Structures (7 points)

A. Choose the correct answer in the following sentences: (3 points)

1 The tower is 900years----------. a. old b. deep c. long

2Amman isn't as---------as Riyadh in the summer. a. colder b . bigger c. hotter

3. Jordan isn't as---------as Egypt the summer a. colder b.drier c. ?

B. Use "as------as ..?" in the following: (4 points)

	Amman	Riyadh
Summer	32 degrees centigrade	43 degrees centigrade
Winter	12 degrees centigrade	14 degrees centigrade
All year	200millimetres	120millimetres

1----------
2----------
3----------
4----------

ART FOUR

Question Four: Focus on Writing (3 points)

A. Write about Jordan (3 points)

Dear my friend .....

.....

.....

.....

.....

.....

.....

.....

The End With My Best Wishes

١٢:١٥ ص ٧٧%
امتحان انجليزي شهر 2 صف 4 - للقراءة فقط
سجّل دخولك لتحرير الملف وحفظ التغييرات ا...

mark 20

تم التحميل من موقع الأوائل

The Ministry of Education
The Education Directorate of———
Second Exam first Term

English Language (Action Pack 4) Class: Fourth Grade

Date:

Name: .....

PART ONE

Question One: Reading Comprehension (5 points)

-Read the following text **carefully** and then answer all the questions below:

Dear Grandpa and Grandma,
We're in Aqapa! We're staying in a hotel by the sea. We're at the Marine Park on the beach. We aren't swimming. We're looking at the fish and the turtle. The turtle isn't swimming. It's sleeping! Mum is buying some postcards.
Samira and Kareem

1. -Where are Samira and Kareem? (1point)

.....

2-What are Samira and Kareem looking at? (1point)

.....

3-Where are they stay? (1point)

.....

4-4-Find out :-(2point)

A-Noun:- .....

B-Preposition:- .....

PART TWO

Question Two: Focus on Vocabulary (5 points)

1-Look and write :-(2point)

visiting the waterfalls - going to Aqapa - swimming in the warm water

١٢:١٥ ص ٧٧% H
سجّل دخولك لتحرير الملف وحفظ التغييرات ا...

C--Order the following sentence:- (2 marks)

1-is / subject / Arabic. / favourite / My-

.....

2-they/a book/are/ reading

.....

ART FOUR

Question Four: Focus on Writing (3 points)

3) Copy and complete with the punctuation: (capitals, . or ?):

1. issa is helping mum

2.is she doing a project about amman

THE END WITH MY BEST WISHES

١٢:١٧ ص %٧٧
امتحان انجليزي شهر 2 صف 1-2 - للقراءة فقط
سجّل دخولك لتحرير الملف وحفظ التغييرات ا...

تم التحميل من موقع الأوائل

The Ministry of Education

The Education Directorate of--------

Second Exam first Term

English language **Class: 2nd Grade**

Name:----------

1- Mach please(4 marks)

Mosque

school

Park

House

2- Choose the correct answer :- (2 marks)

1- We go to **on ----------**

a- Sunday **b- Friday** **c- ?**

2 I visit my **on----------**

a- Sunday **b- Monday** **c- Friday**

تم التحميل من موقع الأوائل

١٢:١٥ ص %٧٧
سجّل دخولك لتحرير الملف وحفظ التغييرات ا...

B. Read and complete:

(3 points)

cold - use - swimming - warm

1. The water is..... in Hammamat Ma'in.
2. Kareem is good at.....
3. Kareem and Samira can.....computer.

PART THREE

Question Three: Focus on Language and Structures (7 points)

A. Choose the correct answer in the following sentences: (3 points)

1-She never ..... in the library.
a- talk b- talks c- talking

2-I am going to .....a farm next week
. a-visit b- visits c- visiting

3-They are..... now.
a- eat b- eating c- ate

B- Look and answer: (2 pts)

1. Is Kareem's father playing tennis?

.....

Grandma reading a postcard?

2- Is

.....

C--Order the following sentence:- (2 marks)

1-is / subject / Arabic. / favourite / My-

.....

2-they/a book/are/ reading

.....

ART FOUR

Question Four: Focus on Writing (3 points)

3) Copy and complete with the punctuation: (capitals, . or ?):

1. issa is helping mum

2.is she doing a project about amman

THE END WITH MY BEST WISHES

يقسم الفعل الثاني الى قسمين منتظم وغير

المنتظم ← فقط نضيف ed للفعل

الغير منتظم ← لنتم تغير الفعل من حال التصريف (1 - 2)

الى الثاني

هناك ظروف تدل على الماضي البسيط

1. Yesterday ← البارحة / الامس

2. last قبل

3. ago قبل

4. 2007 تاريخ قديم

V2 (منتظم)

I Listened to music Yesterday

(Played)

امثلة

وئام Past Simple الماضي البسيط

فاعل — الفعل الثاني — مفعول به

Subject + V_2 + Objects

ed

منتظم regular

Play → Played

help → Helped

غير منتظم irregular

go → went

See → Saw

* نقسم الفعل الثاني الى قسمين منتظم وغير منتظم

* المنتظم ← فقط نضيف ed للفعل

٨:٣٠ ص ٤٨%
مشارك
حصري ومجاني وبالصور اختبار الشهر الثاني مادة ا...
www.jnob-jo.com

بسم الله الرحمن الرحيم

التقويم الثاني لمادة اللغة العربية الفصل الدراسي الثاني عام ٢٠١٦/٢٠١٥

الصف الرابع الأساسي

٢٠

الاسم .....

السؤال الأول: من خلال دراستك لنص أم قيس ونص قيما يختصمون أجب عما يلي: ٥ علامات

١- ما اسم أم قيس قديماً ؟

٢- ما معنى قول عمر أنا أكلتك القضاء؟

٣- لماذا طلب عمر إعفاءه من القضاء؟

٤- أكتب بيتان من قصيدة خلق في المعالي ؟

٥- ما معنى الكلمات الآتية: ٢,٥ علامة

أرجاء	
مشقة	
الشامخة	
يختصمون	
أنهى	

٦- ما ضد الكلمات الآتية :علامة

حضر _____ اختصم _____

٧- استخرج من النص التالي ما يلي : ٢,٥ علامة

"عمل عمر قاضيًا في المدينة سنة كاملة لم يختصم إليه أحدٌ فيها حتى جاء يومًا إلى أبي بكر مطالبًا إعفاءه من القضاء ، فسأله أبو بكر مستغربًا :أمن مشقة القضاء تطلب الإعفاء يا عمر؟"

١) اسم مجرور _____ ٢) تنوين النصب _____

٣) همزة قطع _____ ٤) همزة وصل _____

٥) أسلوب استفهام _____

٨:٣٠ ص ٤٨%
مشارك
حصري ومجاني وبالصور اختبار الشهر الثاني مادة ا...
www.jnob-jo.com

السؤال الثاني :

أ- أملأ الفراغ بما يناسب مما داخل الأقواس : ٤ علامات

١-إنّ ---------- كروية (الأرض ، الأرضَ ، الأرضِ)

٢-كانت الامتحانات ---------- (سهلة ، سهلةً ، سهلةٍ)

٣- ---------- التعليم مفيد (ليت ، لعلّ ، إنّ)

٤-حفوظة بنت الأزور من الصحابيات ---------- خدمن التاريخ (اللتان ، التي ، اللواتي)

ب-أملأ الفراغ بالشكل المناسب للهمزة (ء ، أ ، و) : ١,٥ علامة

١- لا تكن ظمئا..... وفي حياتك.
٢- صوت الصـ.....ـن حمئ ومريح.
٣- سـ.....ـل الطالب المعلم عن الدرس.

ج- أدخل تنوين الفتح على الكلمات التالية ؟ ١,٥ علامة

صحراء ---------- خطأ ---------- صديق ----------

السؤال الثالث : علامتان

أ) حول الجملة الفعلية إلى جملة اسمية
(الله منحك التميز العلم) _____

ب) أكتب استخدم كلمة عندما في جملة مفيدة ؟

_____

٩:٠٢ ص ٥٨%
اختبار-الشهر-الثاني-لغة-انجليزية-للصف-الرابع-فصل-ثاني.docx

Name: ---------- English Test 4th

Nader walked in the desert. He saw many camels there. The camels were very big, with long legs and long necks. Nader liked watching the camels. 'A camel is the ship of the desert'.

*Read: Answer /4

1- Who was in the desert ?----------

2- What did he see?---------- ---------

3- The pronoun a- [He] refers to ----------

b- find past verb : ----------

4- A camel is the ship of the sea ( )

*Complete : [fountain , planetarium , tent , sew]/2 Writing /4

1- In the desert , people lived in ----------

2- There were a big ---------- in old Amman

3- The women ---------- their clothes

4- We can see the stars and planets in the ----------

- Punctuate the following sentences: /2

In the past the shops were in amman

Choose /3 Speaking /6

1- Ahmad is the --------- boy in the class

tall taller tallest

2- Rami is ---------- than Ali

short shorter shortest

3- There ---------- lots of trees in old Amman

is was were

4- I ---------- T.V last night

Watch watches watched

5- Now , people ---------- cars

drive drives drived

6- She ---------- [not, live] in Amman last year

didn't live lived not lived

Answer: /3

- Did you visit Petra ?----------
- Was the stage in Amman?----------
- What did you do on the last Monday ? ----------

٩:٠٩ ص ٦٠%
الامتحان الثاني مهني رابع ف2.pdf

المعلمة تغريد العليمات www.jnob-jo.com حصري لمنتديات صقر الجنوب

٢٠

التقويم الثاني لمادة التربية المهنية الفصل الدراسي الثاني عام ٢٠١٥/٢٠١٦
الصف الرابع

الاسم .....

السؤال الأول : عرف المفاهيم الآتية :- (٣ علامات)

١)التعاون .....
٢)المقصف المدرسي .....

السؤال الثاني : املأ الفراغ في ما يلي :- (١٠ علامات)

١. قيمة السهم الواحد للاشتراك في المقصف المدرسي .....
٢. أبعاد الأذى عن الطريق من صور التعاون داخل .....
٣. من مهام المقصف المدرسي .....و .....
٤. من أمثلة التعاون داخل الأسرة .....

السؤال الثالث : ضع عبارة صح أمام الجملة الصحيحة و عبارة خطأ أمام العبارة الخطأ : (٥ علامات)

١)يحث حديث (المؤمن للمؤمن كالبنيان يشد بعضه بعضا) على الصبر ( )
٢)وضع الملابس التي لا تستخدم مدة طويلة في الخزانة ( )
٣) حل الواجبات من صور التعاون بالمدرسة ( )
٤)لكل نوع من الملابس طريقة خاصة للعناية به ( )
٥)غسل الجوارب بماء ساخن وبأي مسحوق غسيل مهما كان فورًا ( )

السؤال الرابع : علل "نلاحظ عند شراء الملابس وجود قطعة قماش أو جلد مثبتة بها من الداخل"؟ (علامتان)

المعلمة تغريد العليمات www.jnob-jo.com حصري لمنتديات صقر الجنوب

٩:٠٩ ص ٦٠%
الامتحان الثاني مهني رابع ف2.pdf

المعلمة تغريد العليمات www.jnob-jo.com حصري لمنتديات صقر الجنوب

٢٠

التقويم الثاني لمادة التربية المهنية الفصل الدراسي الثاني عام ٢٠١٥/٢٠١٦
الصف الرابع

الاسم .....

السؤال الأول : عرف المفاهيم الآتية :- (٣ علامات)

١)التعاون .....
٢)المقصف المدرسي .....

السؤال الثاني : املأ الفراغ في ما يلي :- (١٠ علامات)

١. قيمة السهم الواحد للاشتراك في المقصف المدرسي .....
٢. أبعاد الأذى عن الطريق من صور التعاون داخل .....
٣. من مهام المقصف المدرسي .....و .....
٤. من أمثلة التعاون داخل الأسرة .....

السؤال الثالث : ضع عبارة صح أمام الجملة الصحيحة و عبارة خطأ أمام العبارة الخطأ : (٥ علامات)

١)يحث حديث (المؤمن للمؤمن كالبنيان يشد بعضه بعضا) على الصبر ( )
٢)وضع الملابس التي لا تستخدم مدة طويلة في الخزانة ( )
٣) حل الواجبات من صور التعاون بالمدرسة ( )
٤)لكل نوع من الملابس طريقة خاصة للعناية به ( )
٥)غسل الجوارب بماء ساخن وبأي مسحوق غسيل مهما كان فورًا ( )

السؤال الرابع : علل "نلاحظ عند شراء الملابس وجود قطعة قماش أو جلد مثبتة بها من الداخل"؟ (علامتان)

المعلمة تغريد العليمات www.jnob-jo.com حصري لمنتديات صقر الجنوب

املأ الفراغ فيما يأتي :

١. من أشكال الصدق

١..... ٢..... ٣.....

٢. .....منجاة لصاحبه وبه ينال رضا الله وثوابه ويكسب محبة الناس وتقوي صلته بهم .

٣. .....هو إحدى القيم الحميدة التي يتميز بها الإنسان وهو يحث ان تعامل الآخر بما تحب أن يعاملك به.

٤. من صور احترام الوالدين ١..... ٢.....

٥. من صور احترام البيئة

١..... ٢.....

٦. يعتبر الصبر وحسن الاستماع من آداب .....

٧. .....هو تبادل الرأي بين الأطراف بخصوص موضوع معين للوصول إلى حل مناسب.

٨. من فوائد الحوار

١..... ٢..... ٣.....

.....

٩. الطالب الذي لا يغش في الامتحان يكون

.....

ضع إشارة (√) أمام العبارة الصحيحة ، وإشارة (×) أمام العبارة الخاطئة :

١. طلب أحد زملائي مساعدتي في الامتحان ووافقت (×).
٢. احترم رأي زملائي الآخرين (√).
٣. ألتزم بالقوانين والأنشطة (√).
٤. أرمي النفايات من نافذة السيارة (×).
٥. لا أكترث كثيرًا بما يقوله زميلي (×).

٩:٠١ ص ٥٨%
اختبار-الشهر-الثاني-لغة-انجليزية-
للصف-الرابع-فصل-ثاني...

ead and complete:-

Used - visited - learned - lived - sewed

1. We visited ---------a zoo.
2. We -------about how people-------in the past.
3. The women-------clothes.
4. They ----goat's hair for the tents. (4points)

3-Look and say:-

1-Yesterday ,Mum---------- her bedroom.

2-Yesterday the boy-- ---------- TV.

3-Yesterday the man---------- his car.

4- Yesterday the boy ---------- his teeth.

5- Last week the boy---------- (5 points)

THE END

WITH MY BEST WISHES

تم النسخ إلى الحافظة

4-Write a bout you:-

٩:٠١ ص ٥٨%
اختبار-الشهر-الثاني-لغة-انجليزية-
للصف-الرابع-فصل-ثاني...

English language Exam
Second Semester
Second Exam

Name: Date: Class:- 4TH grade

1-Read the following text carefully ,and answer the questions :-(6 points)

My grandparents lived in a desert, they didn't live in houses they lived in tents. Their goats and camels lived in the desert, they travelled from place to place.

In the past people didn't have mobile phones or computers. They didn't go to museums, and they didn't watch television or listen to the radio .children didn't have bicycles and lots of toys . They watched the stars and they talked.

Ali

1- Where did Ali's grandparents live?

2- What did people do in the past?

3- Ali's grand parents have camels. T - F

4- Ali's grand parents have mobile phones. T-F

5- The underline pronoun refer to——.

6- Do you prefer living in a city or in a desert

---.

2-Read and complete:-

٨:٣٠ ص ٤٨%
مشارك
حصري ومجاني وبالصور اختبار الشهر الثاني مادة ا...
www.jnob-jo.com

السؤال الثاني :

أ- أملأ الفراغ بما يناسب مما داخل الأقواس : ٤ علامات

١-إنّ ---------- كروية (الأرض ، الأرضَ ، الأرضِ)

٢-كانت الامتحانات ---------- (سهلة ، سهلةً ، سهلةٍ)

٣- ---------- التعليم مفيد (ليت ، لعلّ ، إنّ)

٤-حفوظة بنت الأزور من الصحابيات ---------- خدمن التاريخ (اللتان ، التي ، اللواتي)

ب-أملأ الفراغ بالشكل المناسب للهمزة (ء ، أ ، و) : ١,٥ علامة

١- لا تكن ظمئا..... وفي حياتك.
٢- صوت الصـ.....ـن حمئ ومريح.
٣- سـ.....ـل الطالب المعلم عن الدرس.

ج- أدخل تنوين الفتح على الكلمات التالية ؟ ١,٥ علامة

صحراء ---------- خطأ ---------- صديق ----------

السؤال الثالث : علامتان

أ) حول الجملة الفعلية إلى جملة اسمية
(الله منحك التميز العلم) _____

ب) أكتب استخدم كلمة عندما في جملة مفيدة ؟

_____

٨:٥٨ ص ٥٩%
اختبار-الشهر-الثاني-دين-للصف-الرابع-فصل-ثاني.docx

امتحان الشهر الثاني

الصف الرابع

السؤال الأول:

من خلال دراستك لدرس " الصيام"

1- عرف ماهو الصيام: (علامتان).

2- لمن اباح الاسلام الافطار في نهار رمضان؟ (علامتان)

3- اذكر دعاء الافطار في رمضان؟ (علامتان)

السؤال الثاني:

1. من خلال دراستك لدرس "اتق الله" : (4 علامات)

1- اكتب الحديث النبوي : اتق الله حيثما كنت .....

2- من هو راوي الحديث؟

3- ما معنى اتق الله؟

4- اتبع السيئة الحسنة؟

السؤال الثالث : من خلال دراستك لدرس صلة الرحم اجب عما يلي؟ (2 علامتين)

1. اكمل الحديث من كان يؤمن بالله.....

2. من هو راوي الحديث؟

3. من هم ذوو الارحام؟

4. اذكر ثمرات صلة الرحم؟

مديرية التربية و التعليم

امتحان نهاية الفصل الثاني

40

الاسم / ..... المادة العلوم التاريخ / / 2016 م

الزمن / الصف الرابع الأساسي

ملاحظة :أجب عن جميع الأسئلة وعددها (7) علماً بأن عدد الصفحات (3):

السؤال الأول :عرفي ما يلي: (4علامات)

الأعاصير:

خسوف القمر :

الصخور الترابية :

التيار الكهربائي:

السؤال الثاني: (12 علامة)

ضع إشارة (√) أمام العبارة الصحيحة وإشارة (×) أمام العبارة الخاطئة؟

1) ( ) أوراق نباتات ذات الفلقتين متشابهة العروق .

2) ( ) يعرف كوكب الأرض بكوكب الحياة

3) ( ) من خصائص التربة الطينية حبيباتها مفككة وأقل مسامًا.

4) ( ) تنتقل حبوب اللقاح من المخاريط الذكرية إلى الأنثوية في نبات الصنوبر بالحشرات.

5) ( ) عدد كواكب المجموعة الشمسية تسعة كواكب.

6) ( ) من الأمثلة على النباتات المغطاة البذور العنب.

7) ( ) يعتبر الألمنيوم من المواد العازلة للتيار الكهربائي.

8) ( ) توجد على الصخور المتحولة بقايا تسمى بالأحافير.

9) ( ) يعتبر عطارد من أبعد الكواكب عن الشمس.

10) ( ) تمتاز النباتات الزهرية بأوراقها المنبسطة.

11) ( ) تحدث ظاهرة خسوف القمر لوقوع الأرض بين الشمس والقمر.

12) ( ) يستخدم المنصهر في حماية الأجهزة الكهربائية من الاحتراق.

السؤال الثالث: فسري ما يلي: (4علامات)

1 جاء الكواكب في حركة دائرية حول الشمس؟

2 سبب حدوث ظاهرة الكسوف ؟

٨:٣٠ ص ٤٨%
مشارك
حصري ومجاني وبالصور اختبار الشهر الثاني مادة ا...
www.jnob-jo.com

بسم الله الرحمن الرحيم

التقويم الثاني لمادة اللغة العربية الفصل الدراسي الثاني عام ٢٠١٦/٢٠١٥

الصف الرابع الأساسي

٢٠

الاسم .....

السؤال الأول: من خلال دراستك لنص أم قيس ونص قيما يختصمون أجب عما يلي: ٥ علامات

١- ما اسم أم قيس قديماً ؟

٢- ما معنى قول عمر أنا أكلتك القضاء؟

٣- لماذا طلب عمر إعفاءه من القضاء؟

٤- أكتب بيتان من قصيدة خلق في المعالي ؟

٥- ما معنى الكلمات الآتية: ٢,٥ علامة

أرجاء	
مشقة	
الشامخة	
يختصمون	
أنهى	

٦- ما ضد الكلمات الآتية :علامة

حضر _____ اختصم _____

٧- استخرج من النص التالي ما يلي : ٢,٥ علامة

"عمل عمر قاضيًا في المدينة سنة كاملة لم يختصم إليه أحدٌ فيها حتى جاء يومًا إلى أبي بكر مطالبًا إعفاءه من القضاء ، فسأله أبو بكر مستغربًا :أمن مشقة القضاء تطلب الإعفاء يا عمر؟"

١) اسم مجرور _____ ٢) تنوين النصب _____

٣) همزة قطع _____ ٤) همزة وصل _____

٥) أسلوب استفهام _____

٨:٢٩ ص ٤٨%

مشاركة

بالصور نموذج جديد:اختبار الشهر الثاني لمادة اللغة...

www.jnob-jo.com

بسم الله الرحمن الرحيم

الامتحان الثاني

اللغة العربية

الصف: ثاني

اسم الطالب:

س١: أجب عن الأسئلة التالية بعد قراءة النص:

١. يعود الفضل في اختراع مضادات الجروح إلى إيلي ميتشنيكوف في طريقة لمعالجة إصابات زوجته في أثناء عملها في مطبخ، لتستفيد من هذه المضادات الكثيرة التي تُغطي العضو المصاب.

أ. اكتب اسم الدرس الذي أخذت النص منه: [illegible] الجروح

ب. من هو مخترع مضادات الجروح؟ إيلي ميتشنيكوف

ج. لماذا اخترع ميتشنيكوف مضادات الجروح؟ لمعالجة زوجته في أثناء عملها في المطبخ

د. ما فائدة مضادات الجروح؟ لمعالجة الجروح

هـ. استخرج من النص:

مفرد جموع: اسم مجرور في اضطراع — اسم موصول: الذي

فعل مضارع: يعود — اسم المرة: الجروح

س٢: أعرب الكلمات التي تحتها خط في الجمل التالية وحدد الحركات المناسبة:

١. أنبتت السعادة دائمة. — ٢. إن من الربيع جميل

٣. كان النهر ناضج. — ٤. أنبت الحب سارة

س٣: ضع الكلمة المناسبة (أ، أ) في الفراغ:

١. ما ستقبل أحد صنوف مجاهدة.

٢. ... سر جهودنا كثيراً من جنود الحرية.

٣. ... جلست أمام الحاسوب مكتملة.

٤. ... أكل الطفل الطعام.

س٤: اكتب بيتين من الحافز في المعالي والمجد.

الحافز في المعالي والمجد [illegible]

[illegible] والمجد

فوق [illegible] المعالي

٨:٣٥ ص ٥٠%
مشاركة
بالصور ونموذج ورد جديد :اختبار الشهر الثاني لماد...
www.jnob-jo.com

السؤال الثاني : (7 علامات)

أ- أدخل تنوين الفتح على الكلمات الآتية :

قاضي _____ ضرير _____ كثيرة _____ بناء _____

ب- املأ الفراغ بهمزة الوصل(ا) أو همزة القطع(أ):

1- ـــ ستقبل أحمد ضيفه بحفاوة.

2- ـــ نتبه الماشي إلى حركة السيرات.

3- ـــ جلس أمام الحاسوب جلسة معتدلة.

السؤال الثالث : املأ الفراغ بما يناسب على نمط المثال (علامتان)

مثال : سعى الرجل في البلاد طلبًا للرزق

1- أقف _____ لعلم بلادي.

2- عاقب القاضي المذنب _____ له.

3- ناتي إلى المدرسة _____ للعلم .

أتمنى لكم التوفيق...

معلمة المادة : مـريم دندن

٨:٢٤ ص 51%
مشاركة
بالصور ونموذج ورد جديد :اختبار الشهر الثاني لماد...
www.jnob-jo.com
تحرير

بسم الله الرحمن الرحيم

مدرسة الأثير الاساسية

التقويم الثاني لمادة اللغة العربية الفصل الدراسي الثاني عام 2017/2016

الصف الرابع

الاسم ..... التاريخ :

السؤال الأول: اقرأ النص الآتي ثم أجب عن الأسئلة التي تليه: (9 علامات)

يعودُ الفضل في اختراع ضمادات الجروح إلى (إيرل ديكسون) , الذي فكر في طريقة لمعالجة إصابات زوجته اثناء عملها في مطبخ المنزل ؛ لتستغني بذلك الضمادات الكبيرة التي تغطي العضو المصاب كله .

1- من هو مخترع ضمادات الجروح ؟

2- لماذا فكر ديكسون في اختراع ضمادات الجروح؟

3- اقترح عنوانا للنص.

4- ما المقصود بالضمادات ؟

5- فرق في المعنى فيما تحته خط:

- إذا مرض أحدهم عادوه _____

- عاد صديقي من السفر _____

6- استخرج من النص ما يلي :

1) اسم اشارة _____ 2) جمع مؤنث سالم _____

3) همزة قطع _____ 4) همزة وصل _____

5) اسم علم _____ 6) فعل مضارع _____

٨:١٦ ص ٥٥%
مشاركة
بالصور تلخيص لمادة التربية الإسلامية :(أنواع السج...
www.jnob-jo.com

الصيام

* تعريف الصيام :- امتناع المسلم عن المفطّرات من الطعام والشراب من طلوع الفجر إلى غروب الشمس .

* وقت الصيام : من طلوع الفجر إلى غروب الشمس .

* الحكمة من الصيام : تحقيق تقوى الله عند الصائم .

* فضائل الصيام وفوائده ؟

١- الأجر والثواب العظيم .

٢- للصائمين باب يدخلون منه اسمه باب الريان .

٣- يشعر المسلم بالفقراء والمحتاجين ويعطف عليهم .

٤- يعلّمُ المسلمَ الصبرَ ويعتاد النظام في حياته .

* الفوائد الصحية للصوم :-

١ – راحة للجهاز الهضمي ٢ – خفض السكر في الدم .

* من آداب الصيام ومنه :-

١- الحرص على تناول السحور وذلك: لأن السحور يساعد على تحمّل مشقة الصيام

٢- حفظ اللسان عن الغيبة والنميمة .

٣- استثمار الوقت بالأعمال الصالحة ومنها :

قراءة القرآن ، والذكر ، وصلاة الجماعة ، ومذاكرة الدروس .

٤- عدم الإسراف في الأكل والشرب .

الأشهر القمرية

محرم ، صفر ،

ربيع الأول ، ربيع الآخر ،

جمادى الأولى ، جمادى الآخرة ، رجب ، شعبان ،

رمضان ، شوال ،

ذو القعدة، ذو الحجة

قسم الإشراف / التربية الإسلامية

٨:١٦ ص ٥٥%

مشاركة بالصور تلخيص لمادة التربية الإسلامية :(أنواع السج...

كلمتان حبيبتان إلى الرحمن

الحديث حفظ غيبا

معاني الكلمات :

خفيفتان على اللسان : نطقهما سهل .

ثقيلتان في الميزان : أجرهما عظيم عند الله .

سبحان الله : تنزيه الله من كل عيب ونقص .

راوي الحديث : أبو هريرة رضي الله عنه .

اسمه : عبد الرحمن بن صخر الدوسي .

فضله : من أكثر الصحابة حفظاً للأحاديث النبوية ورواية لها .

ثمرات ذكر الله تعالى .

١ – راحة القلب والشعور بالطمأنينة .

٢ – الإبتعاد عن الغيبة والنميمة .

٣ – الفوز بمغفرة الله تعالى .

٤ – الثواب والأجر العظيم .

لفظ الرحمن في الحديث يدل

١ - سعة رحمة الله بعباده

٢ - يجزي الله على العمل القليل الثواب الكثير

سورة الغاشية

السورة حفظ غيباً

معاني المفردات

١ - عاملة ناصبة : متعبة

٢ - وجوه يومئذ ناعمة : فرحة

٣ - لسعيها راضية : في راحة تامة

٤ - نمارق مصفوفة : وسائد يتكأ عليها

٥ - وزرابي : بسط فاخرة

الموضوع الرئيس للسورة

تحدثت السورة عن اليوم الآخر وجزاء المؤمنين والكافرين

أسماء يوم القيامة

١ – الغاشية

٢ - اليوم الآخر

الآيات من (١ – ٧) جزاء الكافرين .	الآيات من (٨ – ١٦) ثواب المؤمنين
وجوههم ذليلة لما هم فيه من العذاب	وجوههم فرحة لما هم فيه من النعيم
يكونون في تعب دائم ولا يجدون طعم الراحة	يكونون في راحة تامة
شرابهم الماء الحار وطعامهم الضريع	لهم كل أنواع الشراب والطعام ويجلسون على فراش فاخر ولا يسمعون إلا أطيب الكلام

٨:١٥ ص ٥٥%

مشاركة

بالصور تلخيص لمادة التربية الإسلامية :(أنواع السج...

www.jnob-jo.com

من أنواع السجود

أنواع السجود

سجود السهو	سجود التلاوة	سجود الشكر

فضل السجود

١ – له فضل كبير وأجر عظيم ٢– يرفع الله بها الإنسان درجات .

أولاً – سجود السهو : -

تعريفه : سجدتان يؤديهما المصلي آخر الصلاة **قبل التسليم** بسبب خطأ وقع في صلاته ثم يسلم عن يمينه وعن شماله كما يسلم في الصلاة .

أسباب سجود السهو : -

١ – **الزيادة** في الصلاة : مثل زيادة المصلي ركوعاً أو سجوداً .

٢ – **النقصان** في الصلاة : مثل ترك المصلي التشهد الأوسط في الصلاة .

٣ – **الشك** في الصلاة : مثل شك المصلي هل صلى ثلاثاً أم أربعاً ؟

ثانياً – سجود التلاوة : سجدة واحدة يسجدها المسلم إذا تلا آية فيها سجدة .

علامة سجود التلاوة في القرآن الكريم **الخط والمحراب**

إِنَّ الَّذِينَ عِندَ رَبِّكَ لَا يَسْتَكْبِرُونَ عَنْ عِبَادَتِهِ وَيُسَبِّحُونَهُ وَلَهُ يَسْجُدُونَ ۩

ثالثاً – سجود الشكر : سجدة واحدة يؤديها المسلم إذا حصلت له نعمة أو دفع عنه بلاء .

٨:١٦ ص ٥٥%
مشاركة
بالصور تلخيص لمادة التربية الإسلامية :(أنواع السج...
www.jnob-jo.com

من أسماء الله تعالى" العظيم"

تعريف العظيم : اسم من أسماء الله ويعني أن الله له مكانة عالية وصفات كاملة فهو خالق كل شيء والمتصرف في هذا الكون .

مظاهر عظمة الله تعالى :

١ – أن الله عظيم في ذاته متصف بصفات الكمال .

٢ – أن الله عظيم في خلقه وتدبيره .

تعظيم المسلم لربه في أقواله وأعماله

١ – تعظيم الله والإلتزام بأوامره واجتناب نواهيه ٢ – كثرة ذكر الله تعالى .

٣ – تعظيم كلام الله من خلال تلاوة القرآن الكريم .

٤ – تعظيم الجوارح لله تعالى : -

أ) العين – تقرأ في القرآن الكريم

ب) اليد – أتوضأ وأسبّح الله تعالى

ج) الأذن – تسمع القرآن الكريم والكلام الطيب

ثمرات الإيمان بأن الله عظيم

١ – يزداد إيمانه بالله

٢ – يشعر بفضل الله فيشكره على نعمه

العمل لكسب الرزق

الحديث حفظ غيباً

معاني الكلمات :

١ - قط : أبدا ٢ - عمل يده : ما يحصل عليه الإنسان بكسبه واجتهاده

راوي الحديث : الصحابي المقدام بن معدي كرب رضي الله عنه

فضله : روى عدداً من الأحاديث عن رسول الله صلى الله عليه وسلم

الكسب المشروع : العمل الحلال المشروع

اسم النبي / الصحابي	المهنة
محمد صلى الله عليه وسلم	التجارة ورعي الأغنام
داود عليه الصلاة والسلام	الحدادة
موسى عليه الصلاة والسلام	رعي الأغنام
عبد الرحمن بن عوف رضي الله عنه	التجارة
أبو بكر الصديق رضي الله عنه	التجارة
الزبير بن العوام رضي الله عنه	الخياطة

٨:١٤ ص ٥٦%
مشاركة
بالصور:تلخيص علوم (النباتات)للصف الرابع الفصل...
www.jnob-jo.com

اهمية النباتات البذرية



- وكذلك تعمل على تنقية الهواء لانها تنتج غاز الاكسجين من عملية البناء الضوئي.
- تعمل كمصدات للرياح .
- تمنع انجراف التربة .
- مصدر للوقود .
- تستخدم لصناعة الادوية مثل البابونج والنعناع والزعتر .
- يستخدم الصمغ في صناعة المراهم الطبية ولاصق الجروح .
- **يعد الصنوبر اهم مصدر من مصادر الخشب في العالم وذلك لاستقامة سيقانه .**

مع تمنياتنا لكم بالنجاح

معلمات المادة :

لينا المحاريق

٨:١٣ ص ٥٦%
مشاركة
بالصور: تلخيص علوم (النباتات)للصف الرابع الفصل...
www.jnob-jo.com

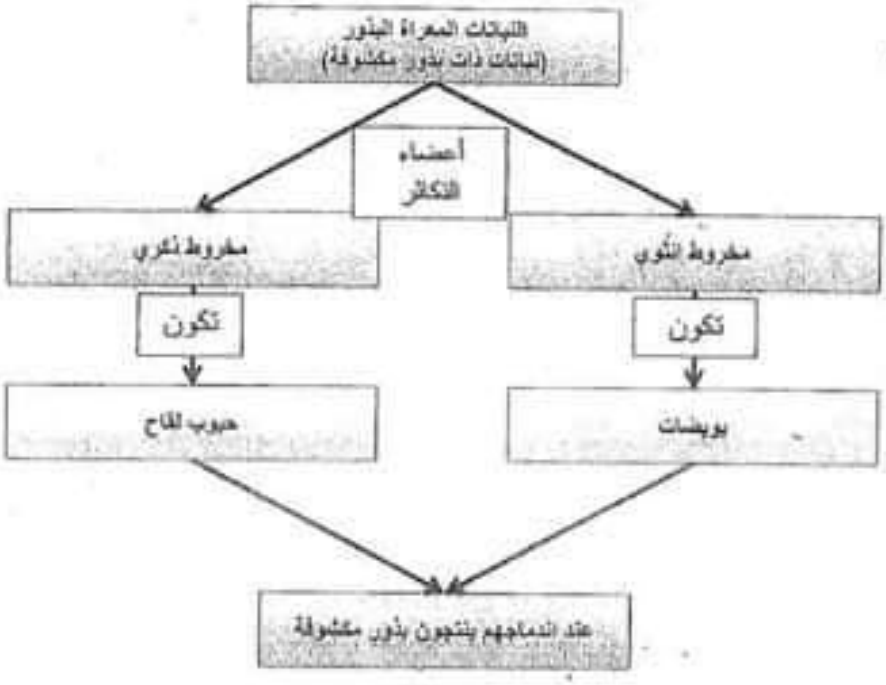

- تنتقل حبوب اللقاح عن طريق الرياح من المخاريط الذكرية الى المخاريط الانثوية لكي تندمج مع البويضة وتكون بذور مكشوفة يمكن فصلها عن المخروط الانثوي .



٨:١٤ ص ٥٦%
مشاركة
بالصور:تلخيص علوم (النباتات)للصف الرابع الفصل...
www.jnob-jo.com

وزارة التربية والتعليم
مديرية التربية والتعليم الخاص / عمان
مدرسة المنار النموذجية الأساسية الثانية

الاسم
الصف : الرابع
المادة : العلوم
التاريخ : / /2017

ورقة تلخيص للفصل الثاني عام 2016/2017

النباتات المعراة البذور

- النباتات المعراة البذور: هي النباتات التي تكون بذورها مكشوفة على السطح الخارجي للثمرة ومن الامثلة عليها الصنوبر و السرو.

- خصائص النباتات المعراة البذور:

أ- شكل اوراقها ابرية.
ب-لايوجد لها ازهار.
ج – يوجد لديها مخاريط وهي اعضاء التكاثر فيها .


مخروط انثوي

مخروط ذكري

- تمتاز المخاريط الانثوية بانها : 1- كبيرة الحجم 2- صلبة 3- تحتوي على بذور.
- تمتاز المخاريط الذكرية بأنها : 1- صغيرة الحجم 2- هشة 3- لاتحتوي على بذور .
- ملاحظة : تتكون البذور في المخاريط الانثوية فقط .

٨:١٤ ص ٥٦%
مشاركة
بالصور:تلخيص علوم (النباتات)للصف الرابع الفصل...
www.jnob-jo.com

قارن بين نبات ذات الفلقة وذات الفلقتين حسب الجدول الاتي :

	عدد الفلقات	شكل العروق في الورقة
ذات الفلقة		
ذات الفلقتين		

اجب عما يلي :

1- صنف النباتات مغطاة البذور

أ..... ب.....

2- اذكر ثلاث امثلة على نباتات مغطاة البذور

.....

3-عدد خصائص النباتات مغطاة البذور

.....

4- ما شكل اوراق النباتات مغطاة البذور .....

5- ما وظيفة عضو التأنيث في الزهرة.....

6-ما وظيفة عضو التذكير في الزهرة.....

7-كيف تنتج البذرة.....

عين اجزاء الزهرة في الشكل :

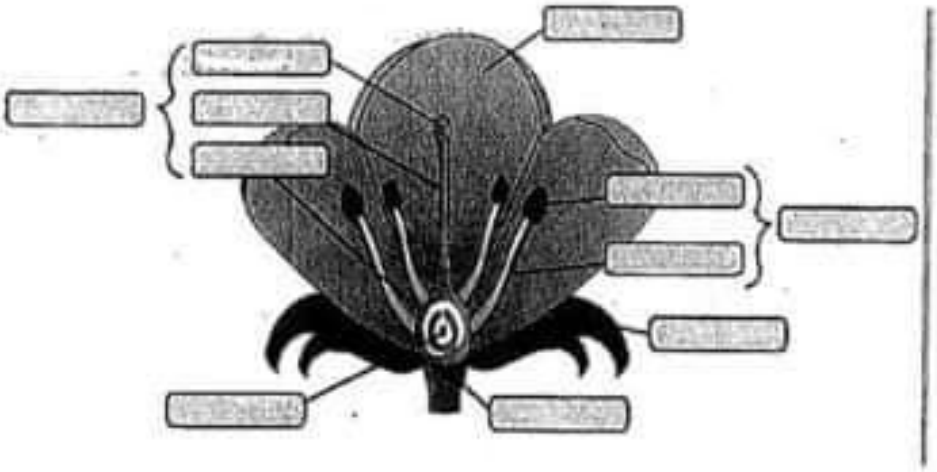

معلمات المادة :

لينا المحاريق

٥. يعد النخيل من النبات ذو الفلقتين. (X) (٥ علامات)

السؤال الخامس: اكتبي اسم الجزء في المكان المناسب: [سبلة ، بتلة ، العضو الأنثوي ، العضو الذكري]

مع أطيب أمنياتي لكن بالتوفيق والنجاح

درجة المادة:



السؤال الرابع: ضعي اشارة (✓) امام العبارة الصحيحة واشارة (X) في المكان المناسب:

١- تكون بذور النباتات مغطاة البذور عادة داخل الثمرة. (✓)

٢- المخروط الذكري حجمه كبير أما المخروط الأنثوي حجمه صغير. (X)

٣- النبات المزهر لا يحتوي على المخاريط. (✓)

٤- يبدأ النبات البذري حياته من بذرة. (✓)

٥- يعد النخيل من النبات ذو الفلقتين. (X)

(٥ علامات)

السؤال الخامس: اكتبي اسم الجزء في المكان المناسب: [سبلة، بتلة، العضو الأنثوي، العضو الذكري]

(٣ علامات)

السؤال الثالث: أكملي الفراغات بما يناسبها:

النباتات المزهرة البذور مخاريط
نوعان هما

مخاريط أنثوية

تنتج

البويضات

مخاريط ذكرية

تنتج

حبوب اللقاح

تندمج معاً
لإنتاج

البذرة

السؤال الرابع: ضعي اشارة (✓) امام العبارة الصحيحة وإشارة (X) في المكان المناسب

٨:١٣ ص ٥٦%
مشاركة www.jnob-jo.com

المملكة الأردنية الهاشمية
وزارة التربية والتعليم
مديرية التربية والتعليم الخاص / عمان
مدرسة المنار النموذجية الأساسية الثانية

اسم الطالب : .....
الصف : الرابع
المادة :العلوم
التاريخ : / /2017

ورقة تلخيص الفصل الثاني عام 2016/2015

النباتات مغطاة البذور(الزهرية)

النباتات مغطاة البذور : هي النباتات التي تكون البذورفيها داخل الثمرة.

النباتات معراة البذور : هي النباتات التي تكون البذور فيها على السطح الخارجي للثمرة .

[illegible]

٢- مخطاة (٠) مكتوفة ٣- داخل المقبرة .

السؤال الثاني: أكمل الجدول التالي بما يناسبه: (٣ علامات)

وجه الاختلاف	نبات الصنوبر	نبات المشمش
شكل الأوراق	إبرية	مسننة
أعضاء التكاثر	الأزهار	الزهرة
البذور	ثمرة الثمار	بداخل ثمار

السؤال الأول: ضع دائرة حول رمز الإجابة الصحيحة فيما يلي: (ثلاث علامات)

١- من النباتات ذات الفلقة الواحدة:

أ- الفول ب- الذرة ج- الحمص

٢- شكل أوراق نبات الزيتون:

أ- منبسط ب- إبري ج- ملتف

٣- تجد البويضات في الزهرة في:

أ- المتك ب- السداة ج- المبيض

٤- تنتقل حبوب اللقاح من المخاريط الذكرية إلى المخاريط الأنثوية في نبات الصنوبر بوساطة:

أ- الحشرات ب- الرياح ج- الإنسان

٥- في النباتات مغطاة البذور تكون بذورها:

أ- مغطاة ب- مكشوفة ج- داخل الثمرة

٨:٤٥ ص ٦٣%
www.jnob-jo.com/vb/t
الرابع.docx

إسم الطالبة: الشعبة: " أ "

امتحان الشهر الثاني للصف الرابع 2015 م / 2016 م

السؤال الأول:

اختر وحدة القياس المناسبة لقياس كل مما يأتي:

1) سرعة الغزال (كم/ساعه ، م/دقيقه)

2) وزن كرة الطائره (كغ ، غ)

3) مساحة سطح منزل (كم^2 ، م^2)

4) طول سياج حديقة (سم ، م)

5) سعة كأس من الماء (لتر ، مل)

السؤال الثاني: ضع العدد المناسب في الفراغ لتصبح العبارة صحيحة:

1) 4 كم = ... م

2) 800 مل = ... لتر

3) 25 غ = ... كغ

4) 9 م = ... سم

السؤال الثالث: أوجد ناتج ما يلي:

1) 12 لتر – 3000 مل = ... لتر

2) 45 سم + 5 دسم = ... دسم

3) خمس ساعات و ثلث + ساعتين و نص = ...

4) 4000 غ – 3 كغ + 1 كغ = ... غ

السؤال الرابع:

أ) مربع محيطه 28 سم ، فما هي مساحته ؟؟؟

ب) في سباق للخيل قطع الحصان الأول مسافة 3 كم في عشر دقائق ، بينما قطع الحصان الثاني نفس المسافه بربع ساعه ، أيهما أسرع ؟؟؟

جـ) ذهبت منال الى السوق الساعه العاشرة و ربع صباحا ، ثم عادت الى البيت الساعه الثانية و نصف مساءً ، كم من الوقت امضت في السوق ؟؟؟

المعلمة: الهام

انتهت

٨:٢٧ ص ٤٩%
مشارك
حصري وبالصور:اختبار الشهر الثاني لمادة الرياضيا...
www.jnob-jo.com

السؤال الرابع : ٣ علامات

أ) إكتب الأرقام الصحيحة على الساعة فيما يلي :

:	:
الثانية عشرة والنصف وخمس دقائق	السابعة والثلث

ب) ذهبت سلام إلى السوق في الساعة الثامنة و١٥ دقيقة وعادت بعد ساعتين حدد الوقت على الساعة :

السؤال الرابع : ٤ علامات

أ) سجادة مربعة الشكل طول ضلعها ٩ م ما مساحتها ؟

ب) قطعة أرض مستطيلة الشكل طولها ٢٥م وعرضها ١٦ م فما مساحتها؟

بالتوفيق أحبتي

٨:٢٧ ص ٤٩%

مشارك

حصري وبالصور:اختبار الشهر الثاني لمادة الرياضيا...

www.jnob-jo.com

اختبار الشهر الثاني لمبحث الرياضيات
للصف الرابع الفصل الثاني ٢٠١٥-٢٠١٦

٢٠

الاسم :

السؤال الأول : ضع العدد المناسب في الفراغ فيما يلي : ٦ علامات

٩ م = ... سم
٢كم = ... سم
٦٢سم = ... مم
١٥كغ = ... غ
٣٠٠مل = ... لتر
٥دونم = ... م٢

٥كم = ... سم
٦٠٠كم = ... م
٤٠٠مم = ... سم
٣طن = ... كغ
٧لتر = ... مل
٥٠٠٠م٢ = ... دونم

السؤال الثاني : جد ناتج ما يلي : ٣ علامات

٤م + ٣كم = ... م

٨سم + ١٨مم = ... مم

٢٠كم × ٤سم = ... سم

٥لتر + ٦٠لتر = ... مل

٦٠٠٠غ - ٢كغ = ... غ

٥طن + ٣٠٠٠كغ = ... كغ

السؤال الثالث : جد محيط الأشكال التالية : ٤ علامات

٨:١٩ ص ٥٣%

مشاركة

بالصور: نموذج جديد لاختبار الشهر الثاني لمادة الريا...

www.jnob-jo.com

تذكر:

مساحة المربع = الضلع × الضلع

ثانيا: ما هي مساحة المربع المجاور:

ثالثا: هل تستطيع حساب مساحة قطعة الأرض المظللة في الشكل؟

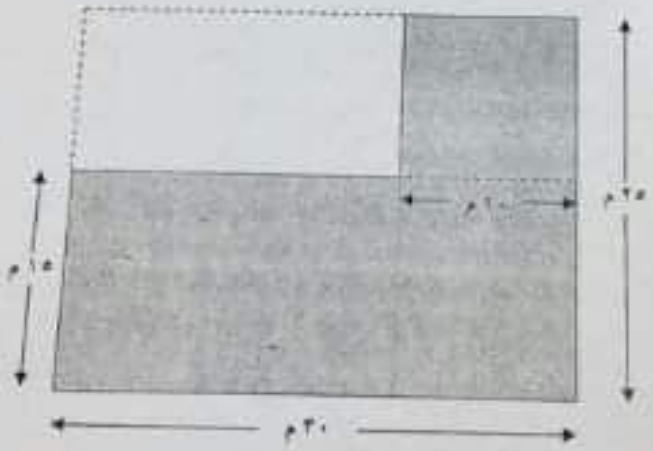

تم النسخ إلى الحافظة

٨:١٩ ص ٥٣%

مشاركة

بالصور: نموذج جديد لاختبار الشهر الثاني لمادة الريا...

www.jnob-jo.com

مدرسة الاتحاد

ورقة عمل

الفصل الدراسي الثاني ٢٠١٦ / ٢٠١٧

الاسم:	المبحث: الرياضيات	الصف: الرابع الشعبة: ( )
الموضوع: مساحة المستطيل و المربع		اليوم والتاريخ:

الهدف: أن يحسب الطالب مساحة المربع و المستطيل

تذكر:

مساحة المستطيل = الطول × العرض

أولا: احسب مساحة الأشكال الآتية:

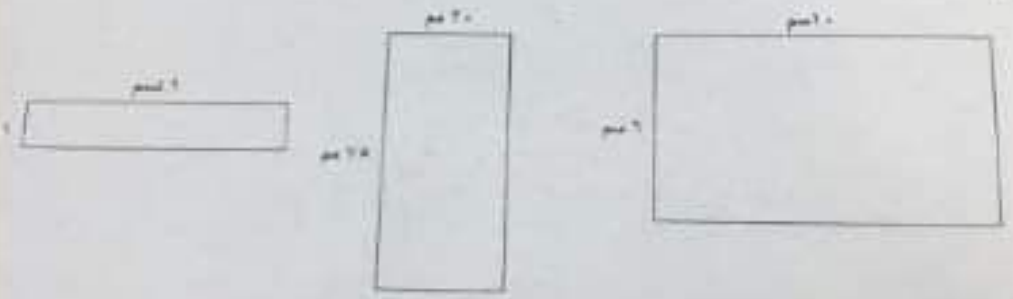

فكّر:

اذا كانت مساحة المستطيل تساوي ٣٦سم٢ و طول أحد أضلاعه ٣سم، فكم طول الضلع الثاني

٨:٤٥ ص ٦٣%

٧٠٠٠ + ٥٠٠ = ٧٥٠٠ مل

* تدريب: ضع العدد في ☐ :

١) ٨ لتر = ☐ مل

٢) ٤٥٠٠ مل = ☐ لتر

* اوجد ناتج :

١) ٦٠٠٠ مل ـ ٣ لتر = ☐ مل

٢) ٩ لتر + ٨٠٠٠ مل = ☐ لتر

* **السرعة** تقاس السرعة

كم/ ساعة

م/ دقيقة

سم/ ثانية

* مثال: سرعة طفل تقاس م/ دقيقة

* سرعة السيارة تقاس كم / ساعة

٢) مربع طول ضلعه ٧ سم . أوجد ؟

أ) محيط المربع

٨:٤٥ ص ٦٣%
www.jnob-jo.com/vb/t

٢) مربع طول ضلعه ٧ سم . أوجد ؟

أ) محيط المربع

ب) مساحة المربع

---

٣) أوجد ناتج ما يلي :- (٣ علامات)

أ) ٣ لتر + ٥٠٠ مل = ☐ مل

ب) ٤٠٠٠ غم + ٦ كغ = ☐ غم

جـ) ٤ كم – ٢٠٠٠ م = ☐ م

---

٤) أكتب الأرقام الصحيحة على الساعة تبعا للزمن المدون تحتها ؟

:	:	:	:
الخامسة والنصف	الحادية عشر إلا ربع	السابعة تماما	الرابعة والربع

انتهت الأسئلة

٨:٤٥ ص ٦٣%

السؤال الأول :-

(أ) صل القائمة (أ) بما يناسبها في القائمة (ب)

القائمة (أ)	القائمة (ب)
سرعة السيارة	٤٠ مل
وزن حوت	٥٠ كم / ساعة
سعة علبة دواء	الساعة السابعة والنصف
طول قلم رصاص	٥٠ طن
وقت الانطلاق للمدرسة	٦ سم

(ب) ضع العدد المناسب في ☐ (٥ علامات)

أ) ٦ كم = ☐ م

ب) ١٦٠ دسم = ☐ م

جـ) ٥ دونم = ☐ م²

د) ٨٠٠٠ م² = ☐ دونم

هـ) ٩٠٠٠ غم = ☐ كغ

و) ٢٠ طن = ☐ كغ

ل) ٨ لتر = ☐ مل

ي) ساعة وربع = ☐ دقيقة

ن) ١٨٠ ثانية = ☐ دقيقة

ع) ٥ دقائق = ☐ ثانية

السؤال الثاني :- (٤ علامات)

١) مستطيل طول ضلعه ٨ سم وعرضه ٦ سم اوجد

أ) محيط المستطيل

ب) مساحة المستطيل

تم النسخ إلى الحافظة

ملحوظة: عدد الصفحات (٢) ، عدد الأسئلة: (٥) ، *حافظ على النظافة.

السؤال الأول : ضع المصطلح المناسب أمام التعريفات الآتية: (٤ علامات)

(الحيوانات المنزلية المنتجة / بطاقة البيان للملابس / المشارب / المخلفات العضوية المنزلية)

المشاربي ..... : هي أوعية يوضع فيها الماء النظيف .

الحيوانات المنزلية المنتجة ..... : هي حيوانات يتم تربيتها في المنزل بهدف الاستفادة من منتجاتها .

بطاقة البيان للملابس ..... : هي قطعة من القماش أو الجلد تثبت على الملابس تحتوي على إرشادات للغسيل والكي.

المخلفات العضوية المنزلية ..... : هي مخلفات طعام المنزل مثل الأرز والخبز والخضراوات .

السؤال الثاني : ضع دائرة حول رمز الإجابة الصحيحة فيما يأتي : (٦ علامات)

١// المعالف هي:

أ) أوعية للغذاء ب) أوعية للماء النظيف ج) أوعية للبيض

٢// يستفاد من تربية الأغنام:

أ) اللحوم فقط ب)الحليب فقط ج) اللحوم والحليب والجلود

٣//من الفوائد الثانوية في تربية الدجاج البلدي

أ) الريش ب)اللحم ج)البيض

٨:٢٠ ص ٥٣%

مشاركة

بالصور: نموذج جديد لاختبار الشهر الثاني لمادة الريا...

www.jnob-jo.com

(بسم الله الرحمن الرحيم)

الصف الرابع ( )

المبحث: الرياضيات

الاسم: .....

(٣علامات)

السؤال الأول:
مستطيل طوله ٦سم وعرضه ٤سم احسب محيطه

(٣علامات)

السؤال الثاني:
مربع محيطه ٢٠سم احسب طول ضلعه

(١٢علامة)

السؤال الثالث:
حول ما يلي:

أ) ٣كم = _____ م

ب) ٦م = _____ دسم

ج) ٢٠٠غ = _____ كغ

د) ٣م + ١٠سم = _____ سم

هـ) ساعة + ١٢دقيقة = _____ ساعة

و) ٣طن = _____ كغ

(علامتان)

السؤال الرابع:

أ) وحدة قياس المناسبة لقياس كتلة الحصان _____

ب) وحدة قياس المناسبة لقياس سرعة السيارة _____

انتهت الأسئلة

معلم المادة:
محمد الغزاوي

المملكة الأردنية الهاشمية
صوت الأردن
WWW.JTV.GOV.JO