مراجعة الوحدة التاسعة (تغيرات الطقس)

ضع دائرة حول الإجابة الصحيحة :

1- الطقس هو:

A- حالة السماء كل يوم. B- حالة الهواء كل يوم. C- حالة السماء والهواء كل يوم.

2- الرياح هي :

A- الهواء الساخن. B- الهواء الساكن. C- الهواء المتحرك.

3- أي صورة مما يلي توضح سماء مشمسة ؟

4- أي صورة مما يلي توضح سماء غائمة ؟

5- أي صورة مما يلي توضح طقس ممطر ؟

6- أي صورة مما يلي توضح طقس مثلج ؟

7- أي أداة مما يلي تقيس كمية الأمطار ؟



8- أي أداة مما يلي تقيس درجة الحرارة ؟





9- أي أداة مما يلي تقيس سرعة الرياح ؟




10- أي أداة مما يلي توضح اتجاه الرياح ؟





11- أي مما يلي هو السحاب الريشي (القزع) ؟

12- أي مما يلي هو السحاب الركامي ؟

13- أي مما يلي هو السحاب الركامي الرعدي (المزن) ؟



14- ما نوع السحاب الذي يساعد في توقع هبوب عاصفة ؟

A- الريشي B- الركامي C- الركامي المزن

15- ما هو الترتيب الصحيح للفصول الأربعة ؟

A- الربيع ـ الخريف ـ الصيف ـ الشتاء B- الربيع ـ الشتاء ـ الخريف ـ الصيف

C- الربيع ـ الصيف ـ الشتاء ـ الخريف D- الربيع ـ الصيف ـ الخريف ـ الشتاء

16- ما هو الفصل الذي يبدأ في 21 مـارس ؟

A- الربيع B- الصيف C- الخريف B- الشتاء

17- ما هو الفصل الذي يبدأ في 21 يونيـــو ؟

A- الربيع B- الصيف C- الخريف B- الشتاء

18- ما هو الفصل الذي يبدأ في 21 سبتمبر ؟

A- الربيع B- الصيف C- الخريف B- الشتاء

19- ما هو الفصل الذي يبدأ في 21 ديسمبر ؟

A- الربيع B- الصيف C- الخريف B- الشتاء

20- يُولد العديد من الحيوانات في فصل :

A- الربيع B- الصيف C- الخريف B- الشتاء

21- يساعد ضوء الشمس والمطر النباتات في النمو في فصل :

A- الربيع B- الصيف C- الخريف B- الشتاء

22- الفصل الأكثر حرارةً ويكون فيه الطقس مشمساً وجافاً جداً ، هو فصل :

A- الربيع B- الصيف C- الخريف B- الشتاء

23- الفصل الأكثر من حيث عدد ساعات النهار ، هو فصل :

A- الربيع B- الصيف C- الخريف B- الشتاء

24- الفصل التي تُغير فيه بعض أوراق الأشجار لونها وتتساقط من الشجر ، هو فصل :

A- الربيع B- الصيف C- الخريف B- الشتاء

25- يخزن السنجاب البري المكسرات في فصل :

A- الربيع B- الصيف C- الخريف B- الشتاء

26- أكثر فصول العام برودةً ، هو فصل :

A- الربيع B- الصيف C- الخريف B- الشتاء

27- الفصل الذي تدخل فيه بعض الحيوانات في سبات حتى الربيع ، هو فصل :

A- الربيع B- الصيف C- الخريف B- الشتاء

28- الفصل الأقل من حيث عدد ساعات النهار ، هو فصل :

A- الربيع B- الصيف C- الخريف B- الشتاء

29- تهاجر وتطير الطيور جنوباً حيث يكون الجو أكثر دفئاً في فصل :

A- الربيع B- الصيف C- الخريف B- الشتاء

صل بين كل أداة من أدوات قياس عوامل الطقس والصورة التى تمثلها :

مقياس المطر

مقياس الرياح

دوارة الرياح

الثيرموميتر

صل بين كل فصل والصورة التى تمثله :

ربيع

صيف

خريف

شتاء

الرسم التالى يمثل دورة الماء، أكمل البيانات على الرسم مستخدماً الكلمات الآتية :

المطر - الشمس - بخار الماء - السحاب

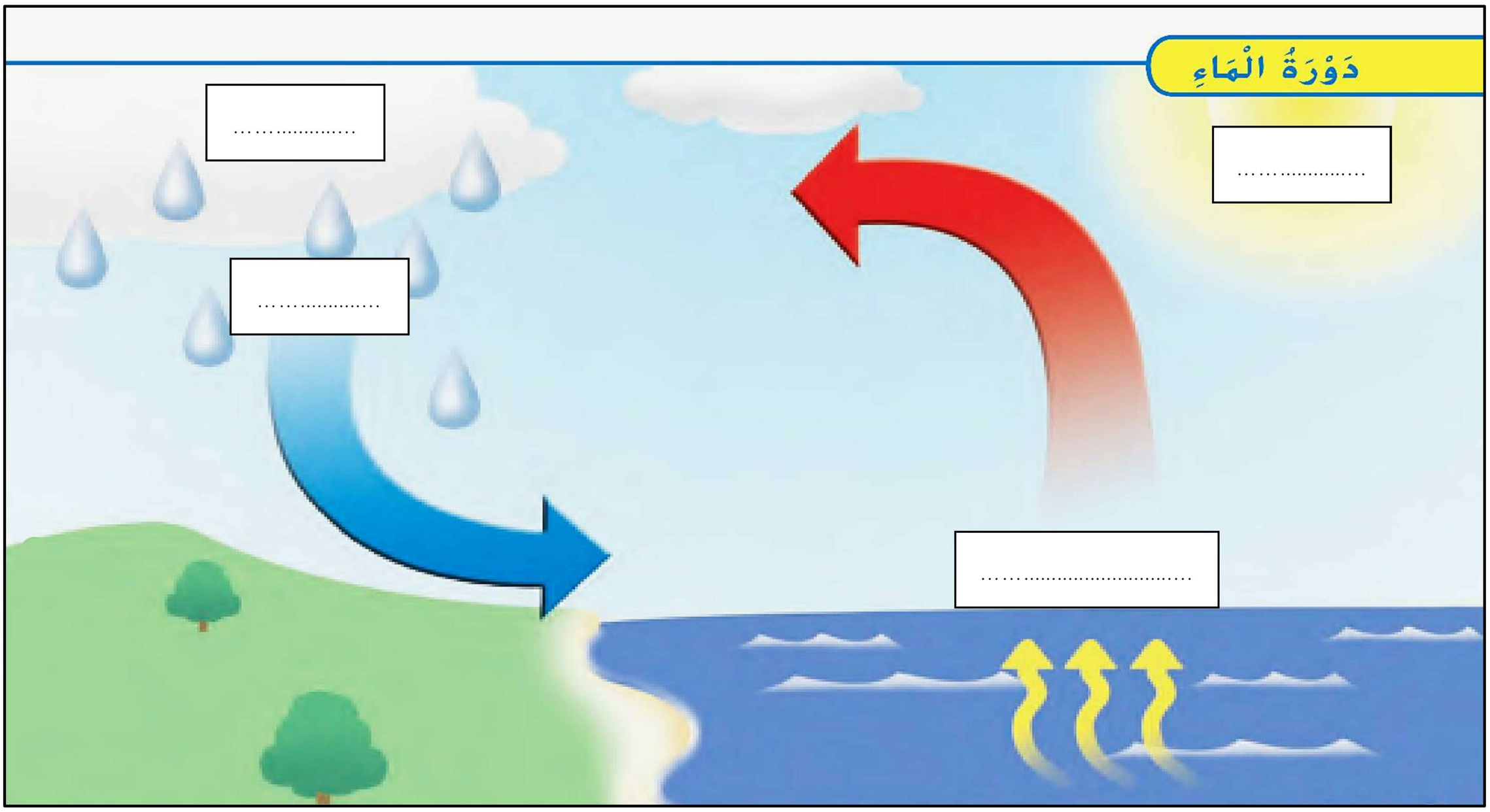

ضع علامة (✓) أمام الجملة الصحيحة وعلامة (✗) أمام الجملة الخطأ :

1- تقيس دوارة الرياح سرعة الرياح. (.....)

2- يقيس الثيرموميتر كمية الأمطار التي تسقط. (.....)

3- عندما تُسخن الشمس الماء، يتحول بعضه إلى بخار ماء. (.....)

4- يتكون السحاب من قطرات من الماء أو قطع من الطين. (.....)

5- القزع هو سحاب رعدي يجلب المطر والعواصف. (.....)

6- الفصل هو فترة من العام يتغير فيها الطقس من حالة إلى أخرى. (.....)

7- يكون الهواء في فصل الخريف أكثر برودة لكثرة ضوء الشمس. (.....)

8- الشتاء هو الفصل الذي يأتي بعد الربيع ويكون الطقس فيه مشمساً وجافاً جداً. (.....)

9- ينضج العديد من الثمار في فصل الخريف ويمكن للإنسان أن يجمعها ويأكلها. (.....)

10- في الشتاء يصبح فرو بعض الحيوانات أكثر سمكاً وبعضها يهاجر إلى أماكن أكثر دفئاً. (.....)

11- في الشتاء تموت بعض النباتات وتسقط أخر الأوراق من بعض الأشجار بسبب قلة ضوء الشمس. (.....)

مع تمنياتي بالتوفيق